Modelo de barra: resolución de problemas

Nombre: _____ grado:___ fecha:____

Lee el problema, luego selecciona la respuesta correcta para completar el modelo de barra y al final selecciona la solución correcta.

1

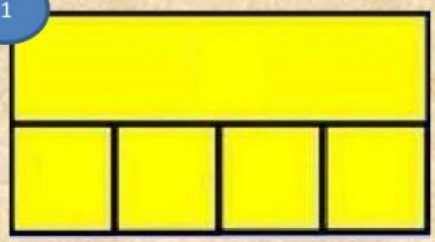

Cuatro hermanos van de paseo a la provincia de Veraguas y el total a gastar es de 924 balboas. ¿Cuál es el aporte de cada uno para poder irse de viaje?

? =

2

Lola tiene 8 sacos de naranjas que contienen 16 naranjas cada uno ¿Cuál es la cantidad de naranja que tiene en total Lola?

? =

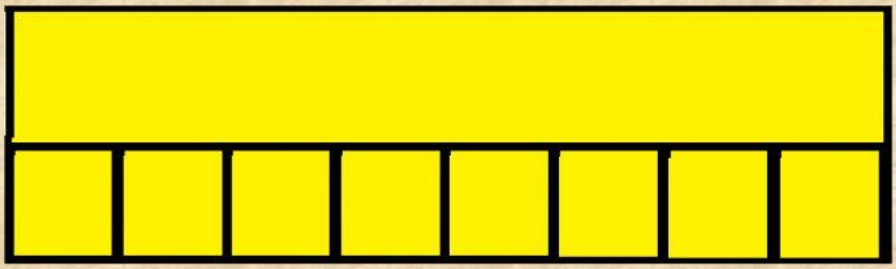

3

Román y Lola pagan B/. 600 al año en gasolina. Si Román paga el doble de Lola ¿Cuánto paga cada uno?

? =

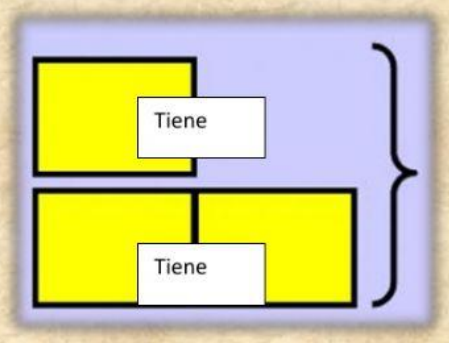

LIVEWORKSHEETS