مجموعة نجوم الرياضيات - الإسم :

أَوجِدْ مُحيطَ كُلِّ شَكْلٍ.

4.

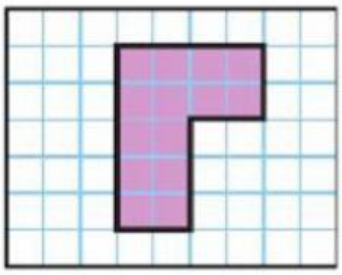

المُحيطُ هُو ____ مترًا.

3.

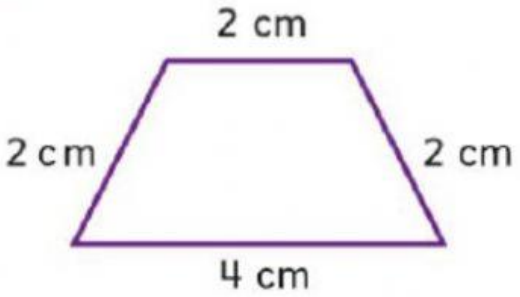

المُحيطُ هُو ____ سنتيمترًا.

الجبرُ أوْجِدْ طولَ الضِّلعِ المَجهولِ لِكُلِّ شَكْلٍ.
مُحيطُ كُلِّ شَكْلٍ هُوَ 50 cm.

9.

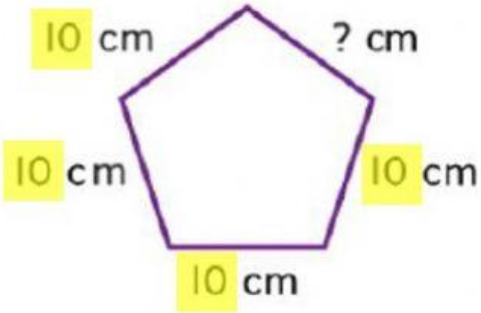

$$\begin{array}{r} 50 \\ -\,40 \\ \hline \end{array}$$

المَجهولُ هُوَ ____ سنتيمتراتٍ.

LIVEWORKSHEETS