PROBLEMI IN FATTORIA

1 Osserva i disegni, completa e rispondi.

- Alla fattoria del nonno sono nati ____ coniglietti bianchi e ____ neri.
  Quanti coniglietti in tutto?

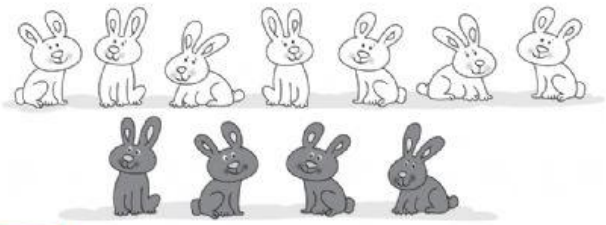

OPERAZIONE

____ ( ) ____ = ____

RISPOSTA

_____

- Nell'orto c'erano ____ cespi di insalata. La nonna ne ha raccolti ____.
  Quanti cespi sono rimasti?

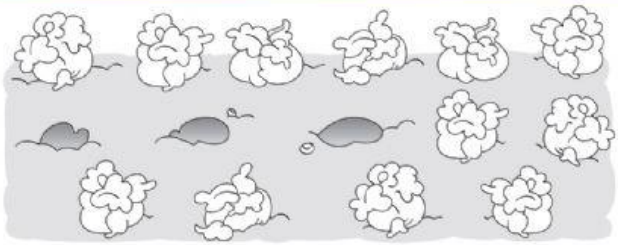

OPERAZIONE

____ ( ) ____ = ____

RISPOSTA

_____

2 Completa lo schema e risolvi.

- Lucia ha raccolto 10 uova il mattino e altre 5 uova il pomeriggio.
  Quante uova in tutto?

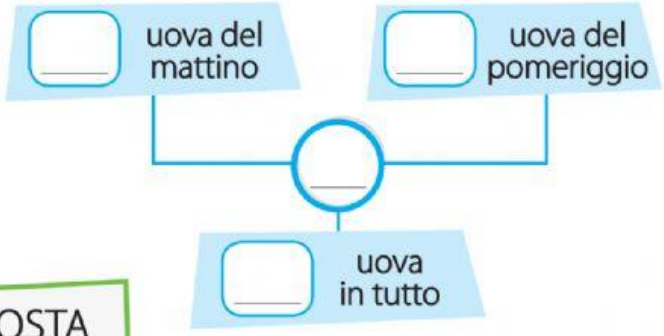

OPERAZIONE

____ ( ) ____ = ____

RISPOSTA

_____

LIVEWORKSHEETS