2 Deskribatu erruletako orratzaren biraketa, A posiziotik B posiziora, eta B posiziotik C posiziora.

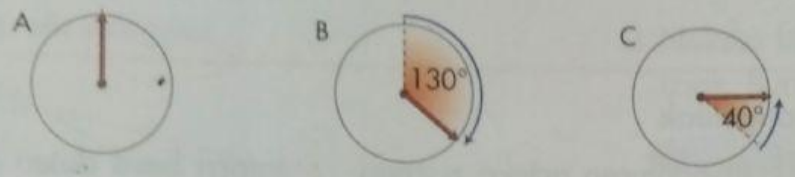

Ikasi eta jardun

Angelu zuzena → 90°.

Biraren laurdena 90°-ko biraketa da.



3 Kalkulatu.

a) Bira erdiko biraketaren anplitudea.

b) Bira osoko biraketaren anplitudea.

4 Andrea eta Paul Kale Nagusian zehar doaz. Paulek Agirre kalea hartu du, liburutegira joateko. Andreak aurrera egin du, eta Zarate kalea hartu du, kiroldegira joateko.

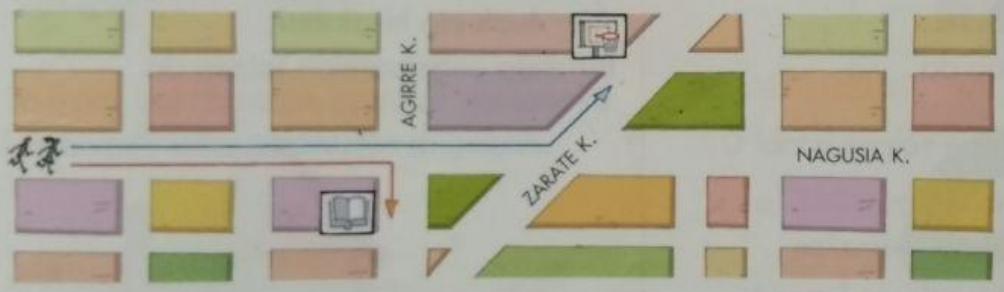

Deskribatu bakoitzak egin duen biraketa, kalez aldatzeko.

Interpretatu eta adierazi

5 Aztertu problema, eta azaldu Martak aurkeztu duen ebazpena.

Zenbatekoa da erlojuko orratzetako bakoitzak deskribatzen duen angeluaren anplitudea, arratsaldeko 6ak eta 7ak artean?

Ebazpena: $90° \times 4 = 360°$

Minutuen orratzak 360°-ko biraketa egin du.

$90° : 3 = 30°$

Orduen orratzak 30°-ko biraketa egin du.

Pentsatu

Kuboetako zein egin da ebakigarriarekin?



LIVEWORKSHEETS