# TIRIAMASIS DARBAS

## Šviesos lūžimas

.....

Vardas, pavardė, klasė

**TEMA** **Šviesos lūžimas**

**HIPOTEZĖ:**

**PRIEMONĖS:**

**DARBO EIGA:**

1. Nustatykite šviesos kritimo ir lūžio kampus. Surašykite į lentelę.

**Bandymas Nr. 1**



**Bandymas Nr. 2**



**Bandymas Nr. 3**



**Bandymas Nr. 4**

**Bandymas Nr. 5**

LIVEWORKSHEETS

**REZULTATŲ LENTELĖ**

| Bandymo Nr. | Kritimo kampas | Lūžio kampas | Lūžio rodiklis |
|---|---|---|---|
| 1. | | | |
| 2. | | | |
| 3. | | | |
| 4. | | | |
| 5. | | | |

2. Naudodamiesi pateikta lentele, nustatykite lūžio rodiklį ir įrašykite į **rezultatų lentelę**.

| Kritimo kampas | Lūžio kampas | Lūžio rodiklis |
|---|---|---|
| 10 | 5 | 1,50 |
| 15 | 8 | 1,51 |
| 20 | 11 | 1,52 |
| 25 | 14 | 1,52 |
| 30 | 17 | 1,52 |
| 35 | 20 | 1,53 |
| 40 | 23 | 1,53 |
| 45 | 26 | 1,53 |
| 50 | 32 | 1,53 |
| 55 | 34 | 1,54 |
| 60 | 36 | 1,54 |
| 65 | 38 | 1,54 |
| 70 | 39 | 1,53 |
| 75 | 40 | 1,52 |
| 80 | 41 | 1,5 |
| 85 | 44 | 1,49 |

**IŠVADA:**

LIVEWORKSHEETS