Ülesanne 1.

Kirjuta pildil punasega märgitud kohtade piletid, kui abstsisstelg näitab kohta ja ordinaattelg rida.



Pilet A

RIDA ..... KOHT .....

Pilet B

RIDA ..... KOHT .....

Pilet C

RIDA ..... KOHT .....

Ülesanne 2.

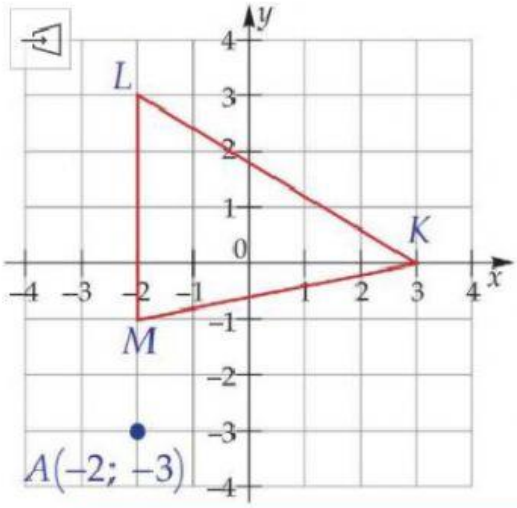

1. Kirjuta punktide K, L ja M koordinaadid.
   K(____; ____)
   L(____; ____)
   M(____; ____)
2. Arvuta kolmnurga KLM pindala.
   S = _____ = _____

Kolmnurga pindala valem: $S = alus \cdot kõrgus$

Ülesanne 3.

Ööpäeva temperatuuri muutumine on näha graafikul. Vasta küsimustele graafiku põhjal.

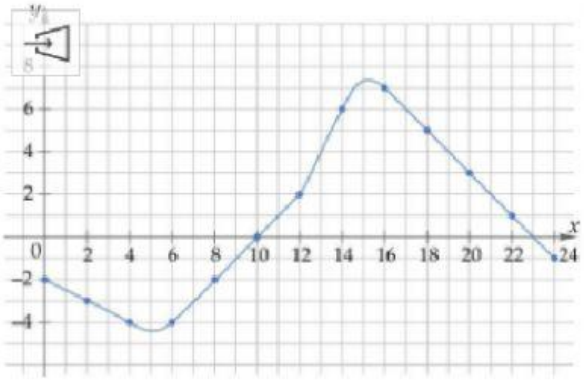

1. Mis kellast alates hakkas temperatuur tõusma?
   [ ]
2. Mitu tundi ööpäevast oli temperatuur üle nulli?
   _____ tundi

LIVEWORKSHEETS

Ülesanne 4.

Vaata liikumisgraafikut ja kirjuta lünkadesse õiged arvud.

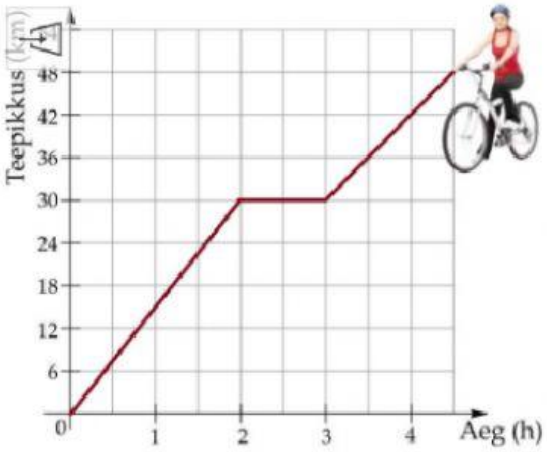

Raili jutustas sõpradele oma rattamatkast: „Alustasime rattamatka koolimaja juurest kell 10.00. Esimese kahe tunniga sõitsime ___ km. Seejärel puhkasime ___ tund(i) järve ääres. Järgmised ___ tundi liikusime kiirusega ___ km/h ja jõudsime kell 00.00 matkamajani. Esimesel matkapäeval sõitsime kokku ___ kilomeetrit."

Ülesanne 5.

Kogus g	Koguse maksumus €
100	0,49
200	0,98
300	1,47
400	1,96
500	2,45
600	2,94

1. Kui palju maksab 1 kg komme?

   _____ €

2. Kui palju maksab 250 g komme?

   _____ €

3. Mitu grammi komme saab 2,21 euro eest?

   _____ grammi.

4. Johannesel on 2,70 eurot. Kas tal jätkub sellest 550 g kommide ostmiseks?

   ◯ Jah ◯ Ei

LIVEWORKSHEETS