ESCOLA:

NOME COMPLETO:

NOME DA PROFESSORA: DATA: / /

A) Escreva o nome das Figuras Geométricas Planas.

Forma Geométrica	Nome	Forma Geométrica	Nome

B) Escreva o nome do Sólido Geométrico que lembra cada imagem..

A BOLA LEMBRA A

A GELADEIRA LEMBRA O

O DADO LEMBRA O

O EXTINTOR DE INCÊNCIO LEMBRA O

A CASQUINHA DE SORVETE LEMBRA O

A VELA COLORIDA LEMBRA A

LIVEWORKSHEETS

C) Leia, observe e marque um X na resposta certa.

1. Observe as imagens e responda a questão:

Figura 1 Figura 2 Figura 3 Figura 4

Qual das figuras acima representa uma esfera?

a) Figura 1.
b) Figura 2.
c) Figura 3.
d) Figura 4.

2. Observe as imagens e responda as questões:

Figura 1 Figura 2 Figura 3 Figura 4

Das figuras acima, qual delas indica uma figura geométrica plana?

a) Figura 1.
b) Figura 2.
c) Figura 3.
d) Figura 4.

3. Observe as imagens e responda a questão:

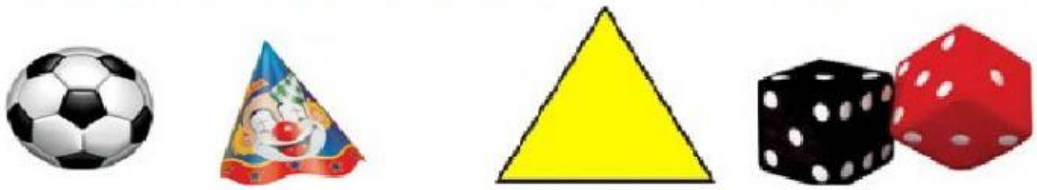

Das figuras acima, qual delas indica uma figura geométrica não plana?

a) bola de futebol.
b) chapéu de aniversário.
c) dados.
d) triângulo.

4. Dois dos objetos abaixo formam a peça sobre a mesa. Quais são eles?

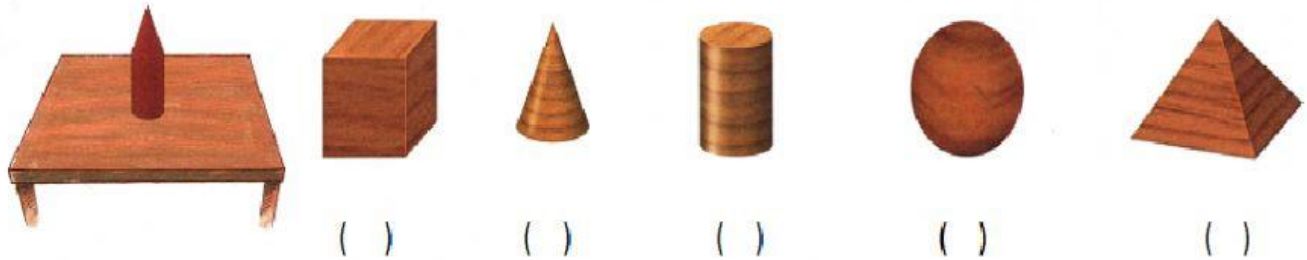

( ) ( ) ( ) ( ) ( )

LIVEWORKSHEETS

5. ¡Marque um X nos desenhos que apresentam a forma de um cubo:

6. ¡Marque com um X os objetos que têm a forma parecida com um cilindro.

☐ ☐ ☐

D) Observe, leia e marque um X na coluna certa.

	COLUNA 1	COLUNA DO MEIO	COLUNA 2
	PIRÂMIDE ☐	PARALELEPÍPEDO ☐	PENTÁGONO ☐
	ESFERA	RETÂNGULO	CILINDRO
	TRIÂNGULO ☐	PIRÂMIDE ☐	CONE ☐
	ESFERA ☐	CIRCULO ☐	HEXAGONO ☐
	CICULO ☐	CONE ☐	ESFERA ☐
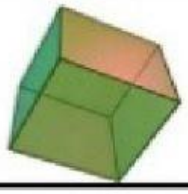	RETÂNGULO ☐	QUADRADO ☐	CUBO ☐

LIVEWORKSHEETS