NOME:

DATA: **PROFª:** **5º ANO:**

ATIVIDADE DE GEOGRAFIA- COMPREENSÃO DO MUNDO PATES III

1-Escreva o nome das pontos Cardeais.

2-A rosa -dos- ventos apresenta dois erros identidifique-os e colore as duas alternativas erradas.

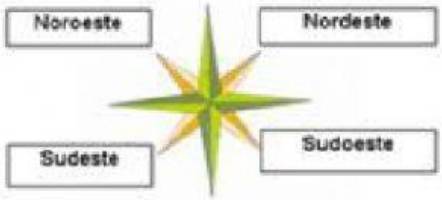

3- Complete as lacunas com as palavras do quadro ao lado:

SOL - CRUZEIRO DO SUL - CARDEAIS

*A rosa -dos- ventos é formada pelos pontos e colaterais.

*Algumas estrelas e constelações que se destacam no céu também passaram a ser utilizadas para indicar direção como , no hemisfério Sul.

*A direção onde o aparece no céu ficou determinada como nascente.

4- A menina está se orientando pelo Sol.Observe a figura.

Complete:

a)À frente da menina está o , Nesse sentido você vê

b) Atrás da menina está o ,Nesse sentido você vê

c) À direita da menina está o ,Nesse sentido você vê

d) À esquerda da menina está o , Nesse sentido você vê

LIVEWORKSHEETS

5. A forma mais comum de orientação na superfície terrestre é por meio de referenciais chamados pontos cardeais e colaterais. Esses referenciais indicam direções e sentidos.

Agora é com você! Responda as questões abaixo:

a) Quantos são os pontos cardeais?

b) Quais são eles?

c) Quantos são os pontos colaterais?

d)Quais são eles?

6.A rosa-dos-ventos é onde representamos os pontos cardeais e os colaterais. Sendo assim, complete a rosa dos ventos abaixo com as informações que estão faltando.

7.Observe a figura abaixo e responda o que se pede:

a) A escola está a _____ da praça.
b) O hospital está ao _____ da praça.
c) A loja está a _____ da praça.
d) As casas estão ao _____ da praça.

LIVEWORKSHEETS

8. De acordo com os nossos estudos vimos que podemos nos orientar observando a localização do Sol. Ele aparece de manhã e esconde-se no final da tarde. Aprendemos ainda, a posicionar o nosso corpo para determinarmos os pontos cardeais utilizando o Sol como referencial. Sendo assim, complete os espaços com os pontos cardeais. Não se esqueça de observar o nascente e o poente.



9. Os pontos cardeais e os colaterais são representados pela rosa-dos-ventos. Observe a rosa dos ventos abaixo e responda o que se pede.

Os números e as letras representam respectivamente:

as vogais e os números;
os pontos cardeais e os números;
as consoantes e os pontos colaterais;
ao pontos cardeais e os pontos colaterais.

10.Observe a informação abaixo e marque a resposta correta:

É o ponto colateral que está entre o norte e o oeste.

Nordeste;
Sudeste;
Noroeste;
Sudoeste.

Você brilha como uma estrela!

LIVEWORKSHEETS

Observe a ilustração e complete as questões a seguir.

1. Considerando a **escola** como ponto de referência, localize os pontos indicados, utilizando somente os pontos cardeais e colaterais.
   a) O aeroporto localiza-se a _____ da escola.
   b) O estádio de futebol localiza-se a _____ da escola.
   c) A rodoviária localiza-se a _____ da escola.
   d) O parque localiza-se a _____ da escola.

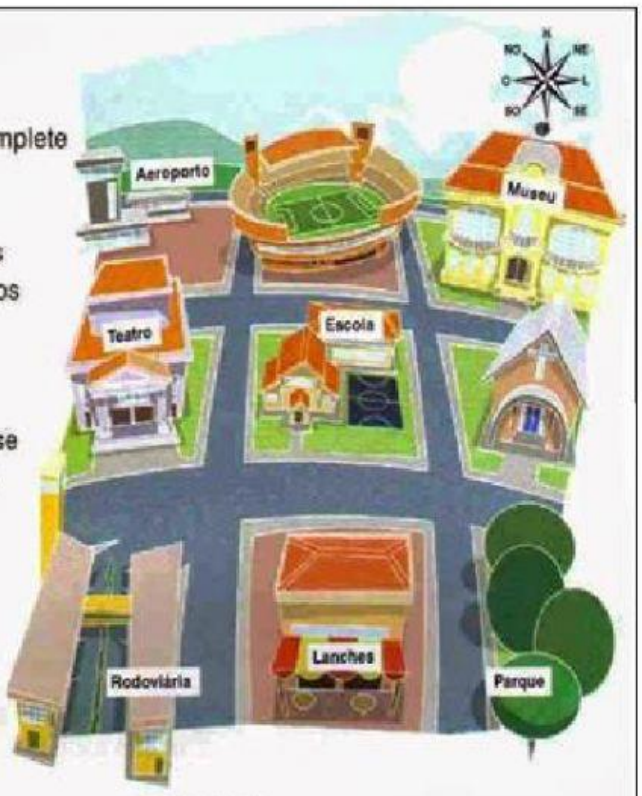

2. Faça o mesmo, agora considerando o **parque** como ponto de referência.
   a) O aeroporto localiza-se a _____ do parque.
   b) O estádio de futebol localiza-se a _____ do parque.
   c) A igreja localiza-se a _____ do parque.

Observe a planta. Ela mostra os bairros de um município imaginário. Partindo de onde está a Prefeitura, escreva qual direção devemos seguir para chegar aos seguintes bairros:

Bairro do Pomar.

Bairro das Indústrias.

Bairro dos Jardins.

Bairro das Pedras.

LIVEWORKSHEETS

Mapa do tesouro

O Capitão da Perna de Pau enterrou seus tesouros em vários lugares da Ilha dos Tubarões.

Estes lugares estão marcados com um X no mapa.

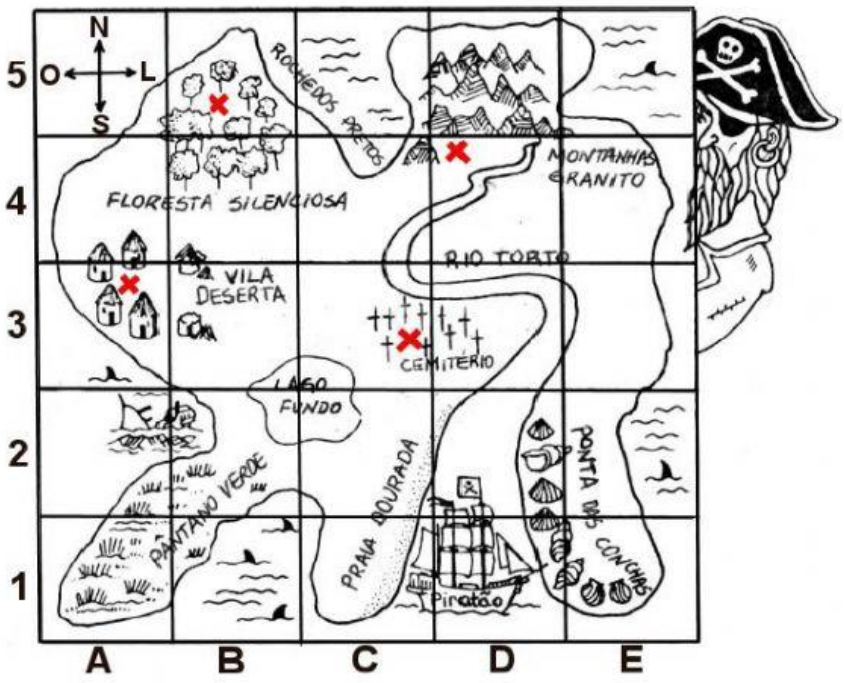

- **O ouro está no quadro (5,B).**
- **A prata está no quadro (4,D).**
- **O cobre está no quadro (3,A).**
- **A caixa de joias está no quadro (3,C).**

Usando O mapa e as informações ao lado, responda as questões:

- **Complete:**

A) **está no pé das Montanhas Granito.**

B) **está na Floresta Silenciosa.**

C) **está no centro do cemitério.**

D) **está na Vila Deserta.**

- **O navio do Capitão se chama "Piratão". Qual o código da localização do navio neste mapa?**

LIVEWORKSHEETS