الموضوع: الجمع باستخدام خط الأعداد

اسم العبقري :..... الصف : .....

* لديك يا عبقري بطاقات الأرقام التالية تأملها ثم اجب عن الأسئلة التالية :

١) أكبر عدد ممكن يتكون من منزلتين آحاد وعشرات هو

٢) أصغر عدد ممكن يتكون من منزلتين هو

٣) العدد الذي عشراته ٣ وأحاده يقل عنه بواحد:

٤) إذا كون محمد العدد ١٥ وأضاف إليه ٣ فكم سيكون الناتج؟ استخدم خط الأعداد لإيجاد الناتج.

الجملة العددية :

LIVEWORKSHEETS

** طالبي النجيب إذا وقف القرد على العدد ٩ وبعد ذلك قفز عدة قفزات ووصل للعدد ١٦ .

أ. عدد القفزات التي قفزها القرد = ☐

ب. اكتب الجملة العددية . ☐



*** مستعينا بخط الأعداد السابق أوجد ناتج جمع الأعداد التالية:

أ. ١٣+٣= ☐

ب. ١٥+٤= ☐

ج. ☐ + ٧ = ١٧

د. ٥ + ١١ = ☐

هـ. تمتلك سارة ١١ حبة فراولة .أهدتها جدتها ٦ حبات فراولة. فكم أصبح لديها؟ اكتب الجملة العددية.

☐

LIVEWORKSHEETS

****

أ) أختارُ كل جملة جمع بالناتج المناسب لها لكل مما يلي:-

١-	٢ + ٦	٦ - ٨ - ٧
٢-	١ + ٤	٥ - ٣ - ٤
٣-	٦ + ٣	١١ - ١٠ - ٩

ب) أصلُ جملة الجمع بالناتج المناسب لها على خط الاعداد :-

أ 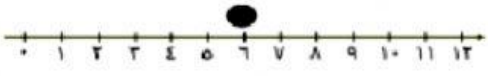

٨ + ٤ =

ب 

٥ + ١ =

ج) لِجُمْلَةُ الَّتي تُمَثِّلُ الشَّكْلَ هِيَ:

١. 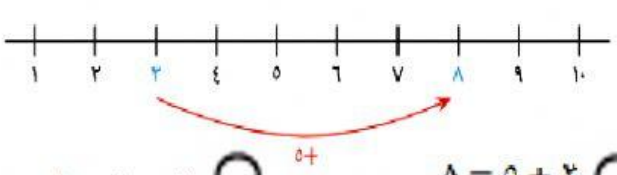

○ ٢ + ٥ = ٨ ○ ٣ + ٤ = ٨

○ ٨ − ٥ = ٣ ○ ٨ − ٤ = ٤

٢.

○ ٦ + ٣ = ٩ ○ ٢ + ٨ = ١٠

○ ٧ + ٢ = ٩ ○ ٦ + ٢ = ٨

د) : عُدْ بشكل تصاعدي لإجراء عملية الجمع.

أوجد المجموع.

٨ + ٧ = ☐

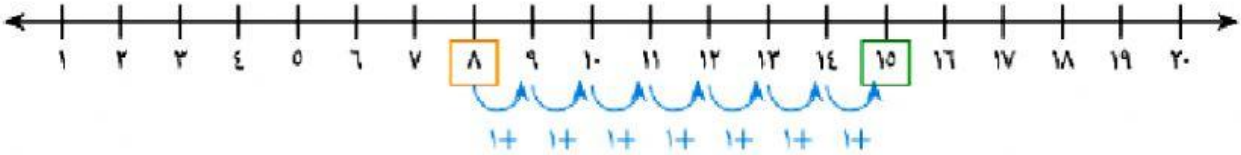

☐ = ٦ + ١٢

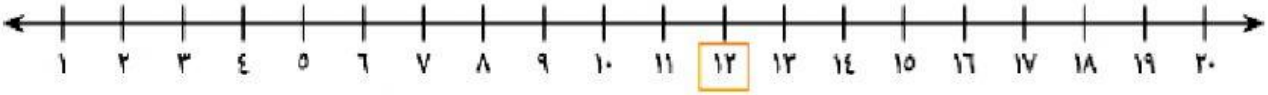

LIVEWORKSHEETS