كن معي

وخذ بيدي

# درس: الكسور المكافئة

كم عدد الأتساع في $\frac{١}{٣}$؟ ____

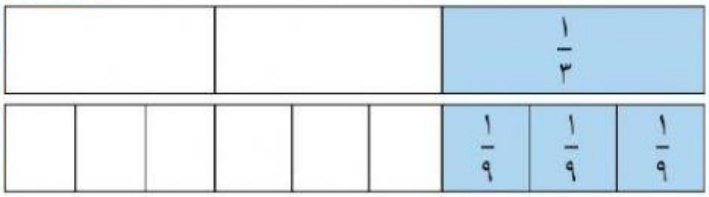




ما قيمة الجزء المظلل؟

$\frac{١}{٥}$ $\frac{١}{٤}$ $\frac{١}{٣}$ $\frac{١}{٦}$

كم سدسا في $\frac{١}{٢}$؟ ____

ما الكسر الذي يمثل الجزء

$\frac{١}{٣}$ $\frac{١}{٤}$ $\frac{١}{٥}$ $\frac{١}{٢}$

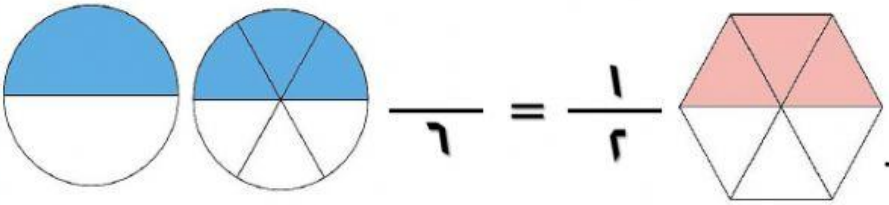

$\frac{١}{٢} = \frac{\quad}{٦}$

أكمل باستخدام الشكل: $\frac{١}{٢} = \frac{\quad}{٦}$

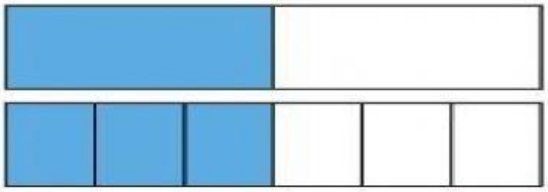

كم جزءاً من عشرة في

$\frac{١}{٢} = \frac{\quad}{\quad}$

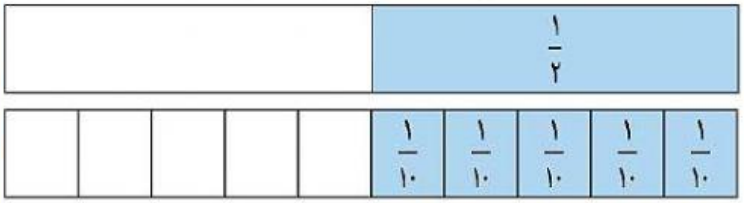


استخدم الصورة لإيجاد عدد الأجزاء من عشرة في خمسٍ واحد:

$\frac{١}{٥} = \frac{\quad}{\quad}$ جزء من عشرة

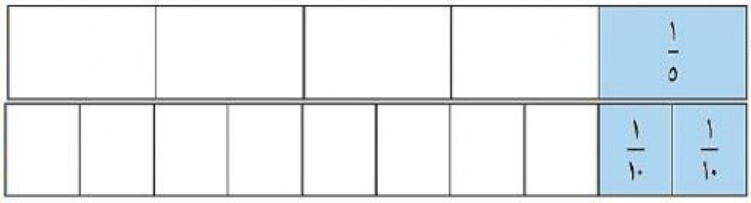


كم ربعا في $\frac{١}{٢}$؟ ____

ما عدد الأسداس في $\frac{١}{٣}$؟ ____

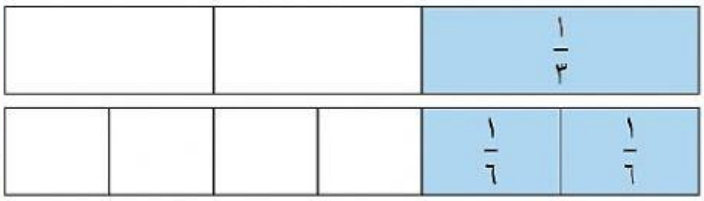


فاطمة عبدالله درويش الشحية

LIVEWORKSHEETS