Bimbingan Belajar Peter
Jl. SimpangBorobudur7Malang 0341–479473
Jl. BoulevardTimur Raya Blok NE 1 no. 59KelapaGading 021–45854182 - 83
Jl. Boulevard Raya QF 1 no.20-21KelapaGading 021–4506213 - 14

REVIEW SOAL

MATEMATIKA	Nama : ……
(Pengolahan Data)	Kelas : IV
	Hr/Tgl : .....April 2020

1. Perhatikan diagram berikut untuk menjawab soal no 1-5!

   Hari apakah telur yang dihasilkan paling sedikit?

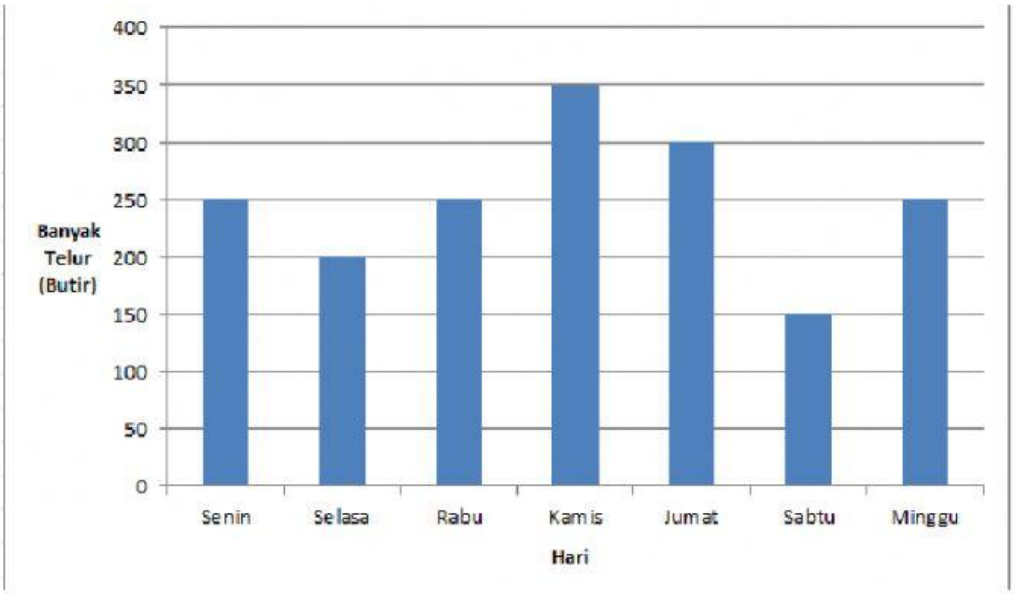

2. Hari apakah telur yang dihasilkan paling banyak?
3. Berapa banyak telur yang dihasilkan selama seminggu?
4. Berapakah selisih banyak telur yang dihasilkan paling banyak dan paling sedikit?
5. Berapa jumlah telur yang dihasilkan hari Jumat dan Minggu?

LIVEWORKSHEETS

6. Perhatikan diagram berikut ini untuk menjawab soal no 6-10!

   Data tersebut merupakan sebuah survei yang dilakukan di suatu SD mengenai banyaknya siswa setiap kelas yang membawa bekal pada hari Senin. Siswa kelas berapakah yang paling banyak membawa bekal?

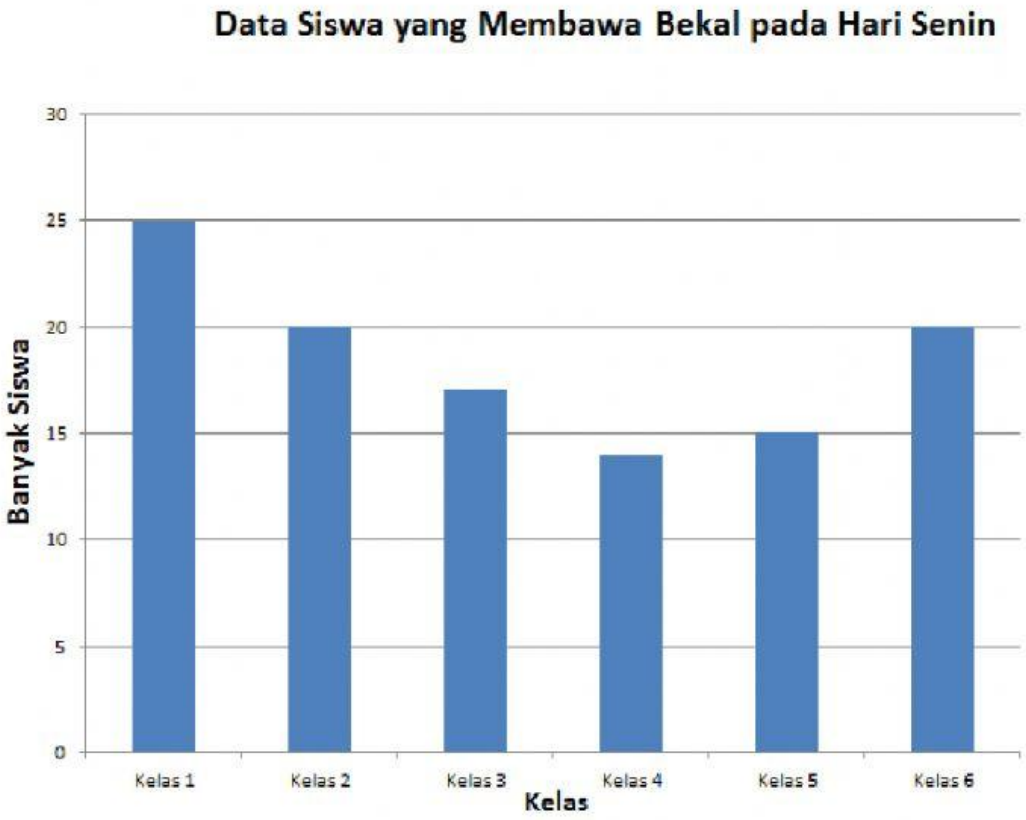

7. Siswa kelas berapakah yang paling sedikit membawa bekal ?

8. Kelas berapakah yang 17 orang siswanya membawa bekal pada hari Senin?

9. Berikut 3 informasi berikut ini yang benar terkait dengan data pada diagram, kecuali...

   A. Jumlah Seluruh siswa adalah 111 siswa

   B. Kelas 2 dan 6 terdapat 20 siswa yang membawa bekal pada hari Senin

   C. Selisih siswa kelas 1 dan 3 adalah 9 siswa

   D. Kelas 4 memiliki jumlah siswa paling sedikit yang membawa bekal pada hari Senin

LIVEWORKSHEETS

10. Perhatikan diagram di bawah ini untuk menjawab soal 10-14!

Penjualan Beras pada hari Jumat sebanyak .... kg

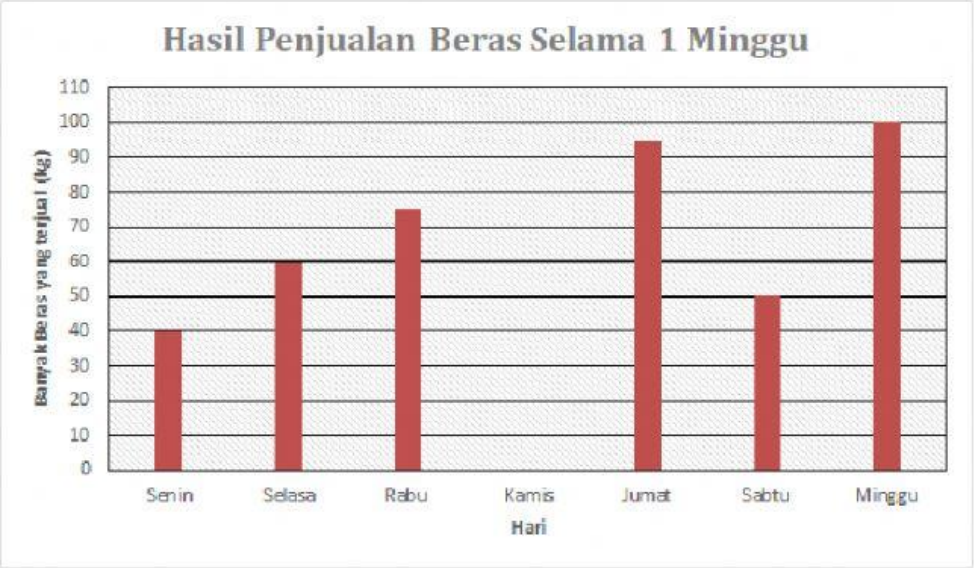

11. Jumlah penjualan beras pada hari Senin dan Sabtu adalah ...

12. Penjualan beras terjadi penurunan pada hari ...

13. Jika jumlah beras selama satu minggu 515 kg, maka banyaknya penjualan beras pada hari Kamis...

14. Jumlah penjualan pada hari Kamis sama dengan hari...

LIVEWORKSHEETS

15. Perhatikan gambar berikut untuk menjawab nomor 15-21!

Siswa yang mempunyai berat badan paling ringan ada .... anak

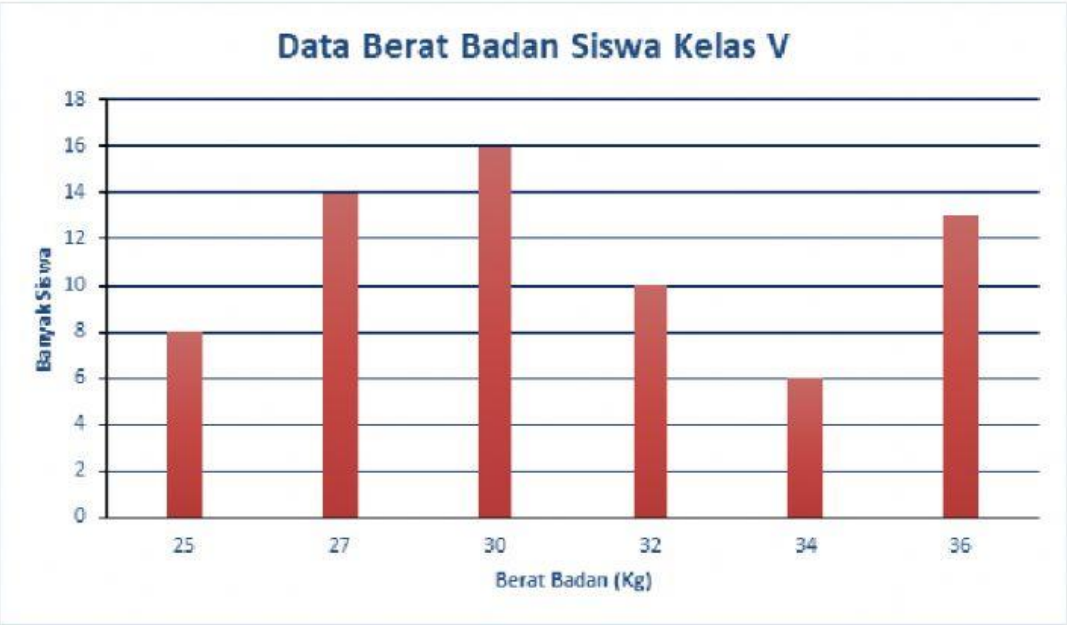

16. Jumlah seluruh siswa kelas V ada ..... anak

17. Siswa yang mempunyai berat badan kurang dari 35 kg ada .... anak

18. Siswa yang mempunyai berat badan lebih dari 31 kg ada .... anak

19. Berat badan terberat siswa adalah ..... kg

20. Selisih jumlah siswa yang memiliki berat badan terendah dan terberat adalah ... anak

21. Berat badan dengan jumlah siswa paling sedikit adalah .... kg

LIVEWORKSHEETS

22. Perhatikan gambar berikut untuk menjawab soal nomor 22-29!
Siswa yang memperoleh nilai 8 sebanyak .... anak

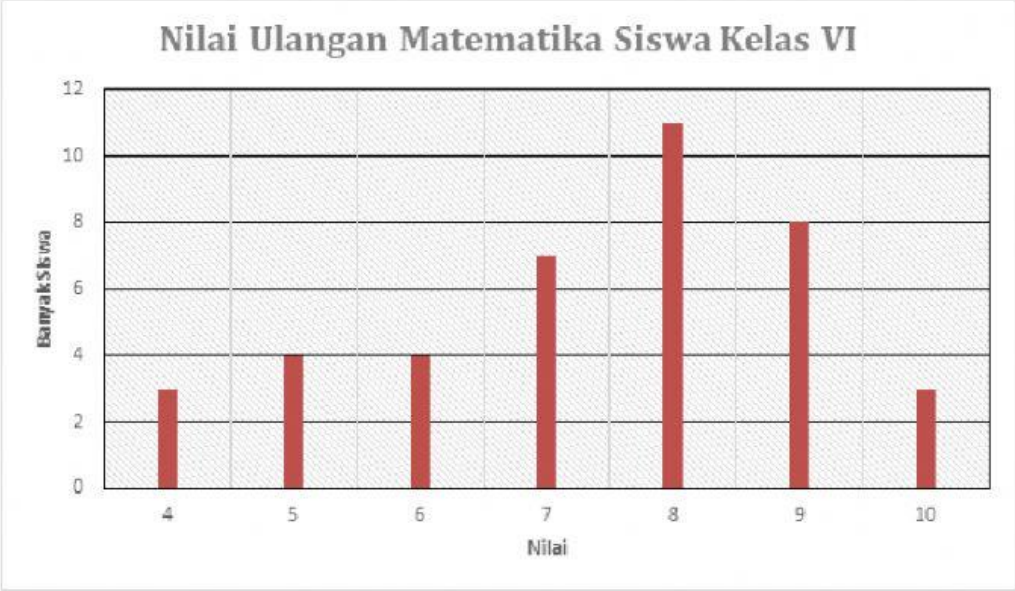

23. Selisih nilai tertinggi dan nilai terendah yang diperoleh siswa adalah …..

24. Jumlah siswa yang memperoleh nilai diatas 6 adalah .... anak

25. Jumlah siswa yang memperoleh nilai dibawah 8 adalah .... anak

26. Jumlah seluruh siswa kelas VI adalah ....

27. Nilai yang paling banyak diperoleh siswa adalah...

28. Banyaknya siswa yang memperoleh nilai 4 sama dengan banyaknya siswa yang memperoleh nilai...

29. Siswa yang memperoleh nilai 5 dan 6 sebanyak .... anak

LIVEWORKSHEETS