ULANGAN HARIAN

(PENYAJIAN DATA)

Mapel : Matematika
Kelas : 7
Semester : Genap

Nama : .....
No.Absen : .....

1. Data yang diperoleh dengan cara menaya langsung kepada narasumber adalah ...
   a. Angket
   b. Wawancara
   c. Test
   d. Observasi
2. Data yang diperoleh dengan pengamatan langsung terhadap objek yang sedang diteliti adalah ...
   a. Wawancara
   b. Observasi
   c. Test
   d. Angket
3. Perhatikan Gambar dibawah ini, Penurunan penjualan buku terbesar terjadi pada hari ...

   a. Senin
   b. Rabu
   c. Jum'at
   d. Sabtu
4. Perhatikan tabel ulangan matematika kelas VII berikut, Banyak siswa yang mendapakan nilai 8 adalah ... orang

Nilai	Frekuensi
6	2
7	6
8	4
9	8
10	5

   a. 4
   b. 5
   c. 6
   d. 7
5. Perhatikan tabel ulangan harian IPA kelas VII berikut, Jika nilai KKM = 7, maka banyak siswa yang mendapatkan nilai di atas KKM adalah ...

Nilai	6	7	8	9	10
Frekuensi	3	7	7	5	3

   a. 5
   b. 10
   c. 15
   d. 20
6. Perhatikan diagram berikut, Selisih banyak siswa yang mengikuti olimpiade matematika pada tahun 2001 dengan 2002 adalah ... siswa

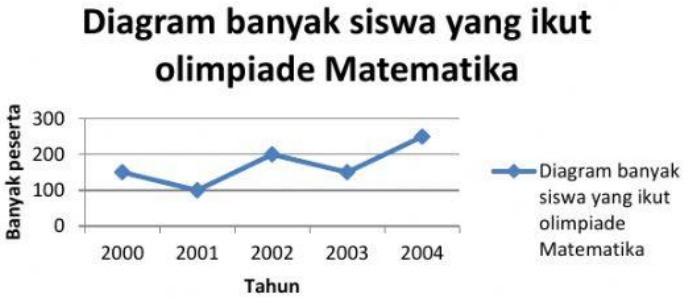

LIVEWORKSHEETS

a. 50
b. 75
c. 100
d. 125

7. Diagram lingkaran berikut menunjukkan kegiatan olahraga yang diikuti 100 anak dalam satu sekolah, Banyak anak yang mengikuti senam adalah ... anak

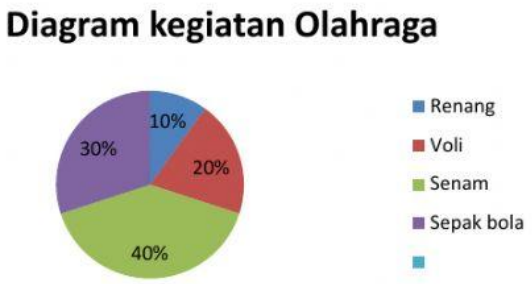

a. 10
b. 20
c. 30
d. 40

8. Diketahui data Ulangan IPS siswa kelas VII sebagai berikut:

Nilai	6	7	8	9	10
Frekuensi	4	6	9	5	2

Banyak siswa yang mendapatkan niali 8 adalah ...
a. 6
b. 7
c. 8
d. 9

9. Diketahui data ukuran sepatu yang siap dijual oleh toko jaya sebagai berikut:

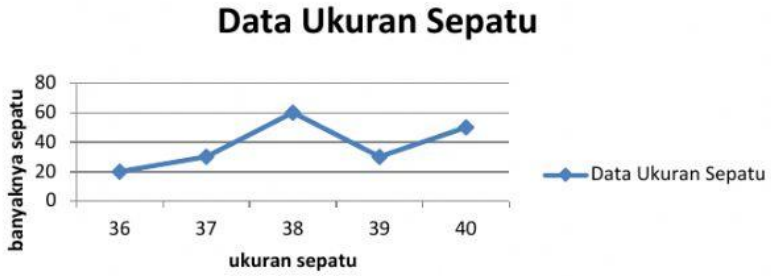

Selisih banyaknya sepatu ukuran 36 dengan 38 adalah ...
a. 10
b. 20
c. 30
d. 40

10. Perhatikan data berat badan dari 5 siswa berikut!

Nama	Sasa	Tia	Citra	Mala	Nurul
Berat badan (kg)	40	50	55	48	60

Jumlah berat badan Sasa dan Mala adalah ... kg
a. 80
b. 85
c. 88
d. 90

LIVEWORKSHEETS