Mathematic

Nama : _____

Kelas : _____

SD. Islam Plus As-Sa;adatain
By:Ka Mega

Tonton video dibawah ini dulu ya…..



Pilihlah jawaban yang paling tepat!

1. Manakah yang termasuk sudut siku-siku?



2. Manakah yang *tidak* termasuk sudut siku-siku?

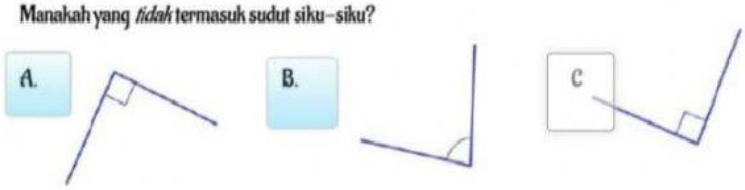

3. Manakah bangun yang memiliki sudut siku-siku?

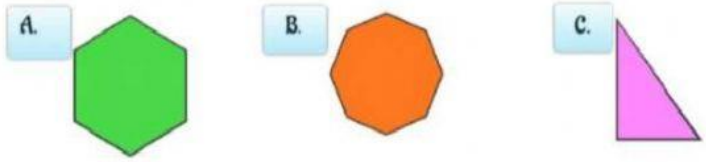

4. Manakah bangun yang memiliki sudut siku-siku?

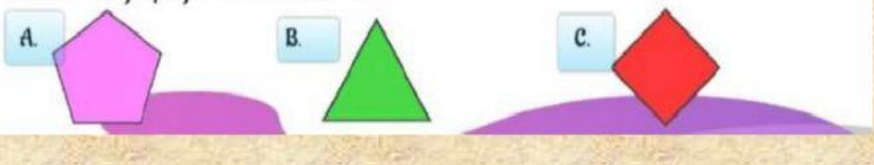

LIVEWORKSHEETS

5. Sudut yang lebih kecil besarnya daripada sudut siku-siku dinamakan sudut . . . .

A. lancip

B. tumpul

C. sejajar

D. penuh

6. Sudut yang lebih besar daripada sudut siku-siku dinamakan sudut . . . .

A. lancip

B. tumpul

C. sejajar

D. penuh

7. Sudut 90° juga dikenal dengan sebutan sudut . . . .

A. siku-siku

B. lancip

C. tumpul

D. garis diagonal

8. Di antara bangun datar berikut yang memiliki sudut lancip adalah . . . .

A.

B.

C.

D.

9. Drag and Drop

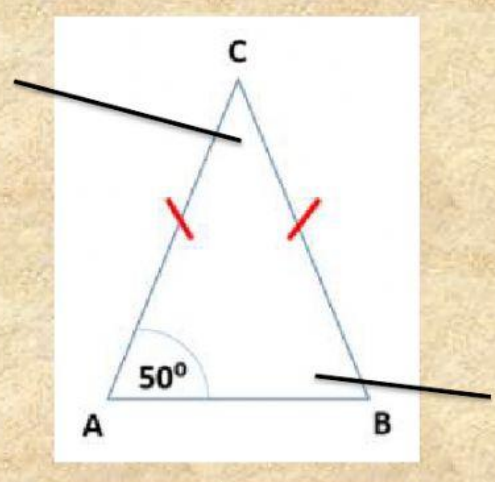

10. Jika sudut a = 120^0 dan sudut d= 60^0.

Sudut yang **berhadapan** merupakan **sama besar**.

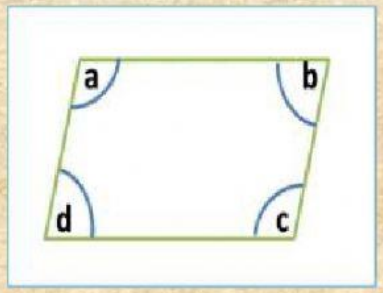

Besar sudut b ? _____

Besar sudat c ? _____

LIVEWORKSHEETS

11.

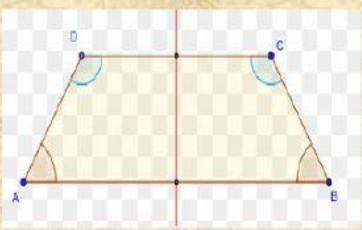

Klik pada Sudut yang sama besar:

- A dan C
- B dan D
- A dan B
- C dan D

Multiplication puzzle

Drag and drop.

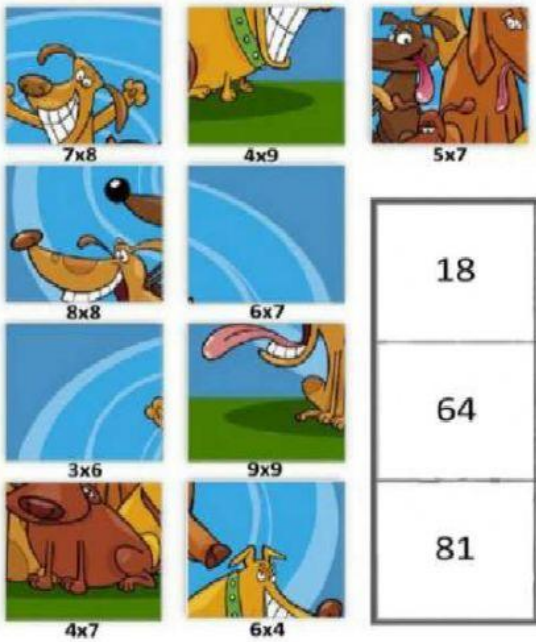

18	56	42
64	35	24
81	28	36

LIVEWORKSHEETS