Họ tên: _____ Lớp: _____ Ngày: ___/___/2021

2

PHIẾU ÔN TẬP: HÌNH TỨ GIÁC

I. KIẾN THỨC CẦN LƯU Ý

Các hình tứ giác.

	Hình thang	Hình bình hành	Hình chữ nhật	Hình thoi	Hình vuông
Hình minh hoạ	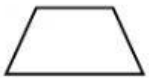				

II. LUYỆN TẬP

1. Đánh dấu tick nếu hình vẽ đúng với tên gọi tương ứng.

a. Hình thang

b. Hình bình hành

c. Hình thoi

d. Hình chữ nhật

e. Hình vuông

d. Hình tứ giác

2. Tick các đặc điểm giống nhau, khác nhau giữa hình thoi và hình vuông.

Chú ý đặc điểm về cặp cạnh song song, cặp cạnh bằng nhau, các góc vuông.

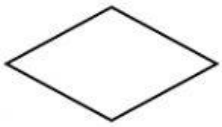



Giống nhau

- [ ] Có 4 cạnh
- [ ] Có 4 góc vuông
- [ ] Có 4 cạnh bằng nhau
- [ ] Có 2 cặp cạnh song song

Khác nhau

- [ ] Hình thoi chỉ có 1 cặp cạnh song song còn hình vuông có 2 cặp cạnh song song
- [ ] Hình vuông có 4 góc vuông còn hình thoi thì không có 4 góc vuông.

LIVEWORKSHEETS

3. Điền **số** thích hợp vào chỗ trống.

a. Hình thang là hình có _____ cặp cạnh song song và _____ cặp cạnh bằng nhau.

b. Hình thoi và hình vuông là các tứ giác luôn luôn có _____ cạnh bằng nhau.

c. Hình chữ nhật luôn luôn có _____ góc vuông và có _____ cặp cạnh vừa song song, vừa bằng nhau.

d. Hình bình hành là tứ giác có _____ cặp cạnh vừa song song và bằng nhau.

4. Trong các hình dưới đây, hình nào không giống với các hình còn lại? Giải thích.

A B C D

_____

_____

_____

_____

_____

LIVEWORKSHEETS