PONTE DO SABER – 8º Ano – Atividade 9 e 10

Prof. Rodrigo – Ciências

Nome:_____ Ano:_____

1) Observe as imagens e diga qual termômetro é de dilatação e qual é o de resistência.

A

B

_____ _____

2) Na imagem abaixo as flechas indicam a agitação das partículas, sendo que a flecha pequena possui menor agitação e a flecha grande maior agitação. Assinale a alternativa em que a imagem está representando maior temperatura.

A

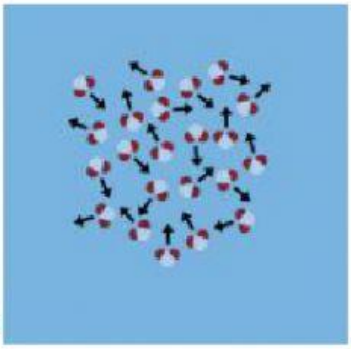

B

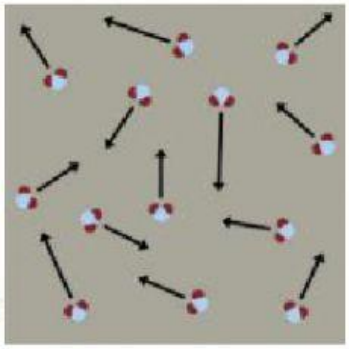

3) O que essa imagem representa?

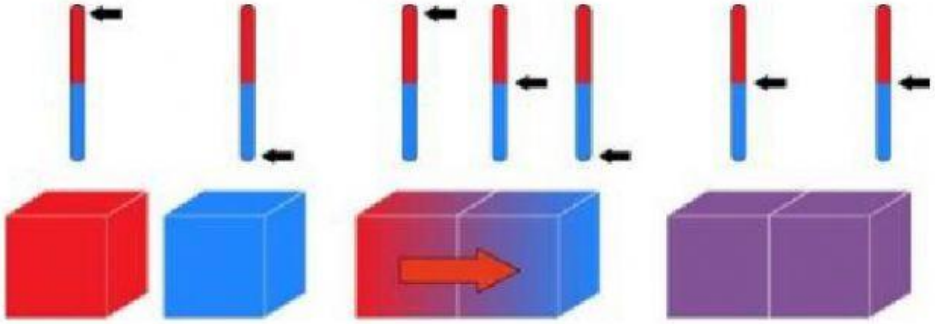

a) Sensação térmica.
b) Agitação térmica.
c) Equilíbrio térmico.
d) Garrafa térmica.

LIVEWORKSHEETS