تدريب 11

تبلغ المسافة بين سوق واقف و منطقة السد $6\ km$ تقريبا، ما المسافة بين المنطقتين بالمتر؟

A $60\ m$

B $600\ m$

C $6000\ m$

D $60000\ m$

LIVEWORKSHEETS

تدريب 13

ما ناتج $3 \times 2 + 7$ ؟

A 9

B 13

C 16

D 19

LIVEWORKSHEETS

تدريب 14

ما الزوج المرتب الذي تحدده النقطة D في الشبكة أدناه؟

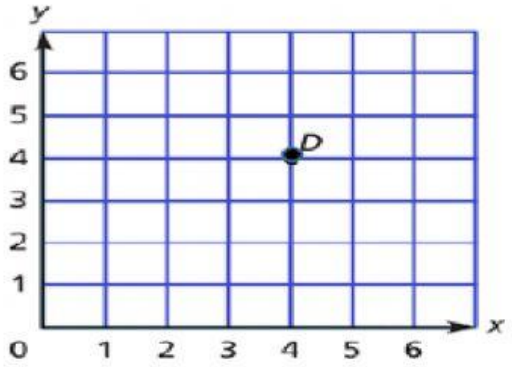

A (4,4)

B (5,0)

C (3,5)

D (6,1)

LIVEWORKSHEETS

تدريب 16

يزرع راشد نبتتي النعنع و الزعتر ، طول نبتة النعنع $3\ cm$ ، وطول نبتة الزعتر $4cm$
تنمو نبتة النعنع بمقدار $2cm$ كل أسبوع، وتنمو نبتة الزعتر بمقدار $1\ cm$ كل أسبوع.
كم سيصبح طول كل من النبتتين بعد 4 أسابيع؟

نبتة الزعتر	
الطول (cm)	الاسبوع
$4\ cm$	البداية
	1
	2
	3
	4

نبتة النعنع	
الطول (cm)	الاسبوع
$3\ cm$	البداية
	1
	2
	3
	4

A نبتة النعنع $11cm$ ، نبتة الزعتر $6cm$

B نبتة النعنع $11cm$ ، نبتة الزعتر $8\ cm$

C نبتة النعنع $6cm$ ، نبتة الزعتر $10cm$

D نبتة النعنع $6cm$ ، نبتة الزعتر $12cm$

LIVEWORKSHEETS

تدريب 17

لدى سعيد نبتتان، طول النبتة الأولى $5\ cm$ ، وطول النبتة الثانية $7cm$
تنمو النبتة الأولى بمقدار $2cm$ كل أسبوع، وتنمو النبتة الثانية بمقدار $1cm$ كل أسبوع.
كم سيصبح طول كل من النبتتين بعد 4 أسابيع؟

النبتة الأولى	
الاسبوع	الطول (cm)
البداية	$5\ cm$
1	
2	
3	
4	

النبتة الثانية	
الاسبوع	الطول (cm)
البداية	$7\ cm$
1	
2	
3	
4	

A النبتة الأولى $13cm$ ، النبتة الثانية $8cm$

B النبتة الأولى $13cm$ ، النبتة الثانية $11\ cm$

C النبتة الأولى $8cm$ ، النبتة الثانية $10cm$

D النبتة الأولى $8cm$ ، النبتة الثانية $12cm$

LIVEWORKSHEETS

تدريب 18

أي مما يلي يمثّل مستقيمين **متوازيين**؟

A



C

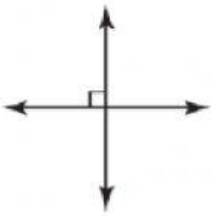

B



D



LIVEWORKSHEETS

تدريب 19

أي مما يلي يمثّل مستقيمين متوازيين؟

A



C

B

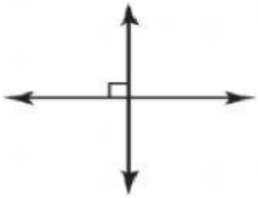

D

LIVEWORKSHEETS

تدريب 20

أي الأشكال التالية **ليس متناظر** حول محور؟

A

C

B

D

LIVEWORKSHEETS

تدريب 21

أي الأشكال التالية **ليس متناظر** حول محور؟

A

C

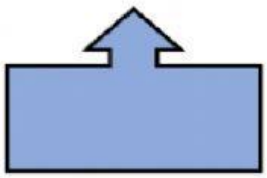

B



D

LIVEWORKSHEETS