Ayo isilah titik-titik di bawah ini dengan jawaban yang benar! Coba kerjakan di buku tugasmu!

1. 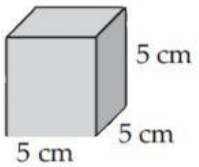

Volume kubus di samping adalah … . cm^3

2. 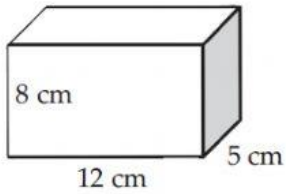

Volume balok di samping adalah … . cm^3

3. 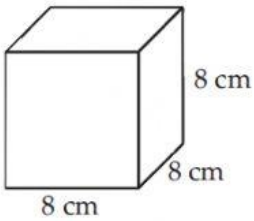

Volume = … cm^3

4. 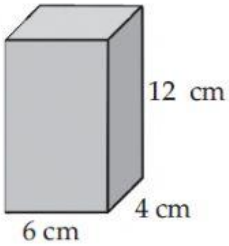

Volume = … cm^3

5. 

Volume = … cm^3

Mari menyelesaikan soal-soal berikut ini!

1. Sebuah kubus mempunyai panjang sisi 14 cm. Berapakah volume kubus tersebut? Volume = ... cm^3
2. Sebuah balok mempunyai panjang 15 cm, lebar 10 cm, dan tinggi 8 cm. Berapakah volume balok tersebut? Volume = ... cm^3
3. 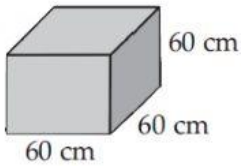

Berapakah volume bangun ruang di samping?

Volume = ... cm^3

4. 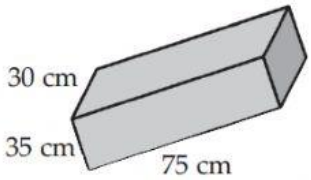

Berapakah volume bangun ruang di samping?

Volume = ... cm^3

5. Sebuah bak mandi berbentuk balok dengan panjang 15 dm, lebar 8 dm, dan tinggi 6 dm. Berapa literkah air untuk mengisi bak mandi tersebut sampai penuh?

   Volume = ... liter

LIVEWORKSHEETS