Imię i Nazwisko

**1** Uzupełnij zapis pod rysunkiem.

a)

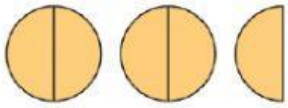

2 całości i $\frac{1}{2}$ całości

$2\frac{1}{2}$

c)

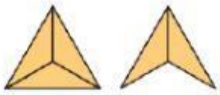

☐ całość i $\frac{☐}{☐}$ całości

☐ $\frac{☐}{☐}$

b)



☐ całości i $\frac{☐}{☐}$ całości

☐ $\frac{☐}{☐}$

d)

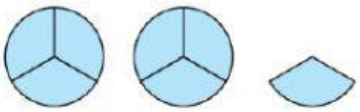

☐ całości i $\frac{☐}{☐}$ całości

☐ $\frac{☐}{☐}$

**2** Odczytaj i zapisz słowami.

$2\frac{3}{4}$ – dwa i trzy czwarte

$4\frac{3}{5}$ – _____

$1\frac{1}{3}$ – _____

$3\frac{5}{6}$ – _____

$8\frac{2}{7}$ – _____

LIVEWORKSHEETS

**3** Zapisz cyframi.

a) pięć i trzy siódme

$5\frac{\square}{\square}$

b) trzy i trzy piąte

$\square\frac{\square}{\square}$

c) siedem i jedna czwarta

_____

d) cztery i dwie trzecie

_____

**4** Przyjrzyj się rysunkowi, a następnie odpowiedz na pytania.

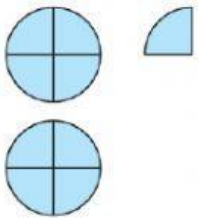

a) Ile części jest w jednym kole? 4

Ile jest całych kół? 2

Ile części jest w tych kołach? __

$2 \cdot 4 = 8$

Ile jest części poza kołami? 1

Ile jest wszystkich części? 9

$2 \cdot 4 + 1 = 8 + 1 = 9$

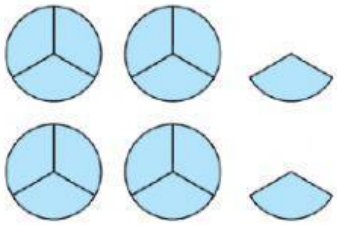

b) Ile części jest w jednym kole? __

Ile jest całych kół? __

Ile części jest w tych kołach? __

_____

Ile jest części poza kołami? __

Ile jest wszystkich części? __

_____

LIVEWORKSHEETS

**5** Zapisz liczbę mieszaną, a następnie zamień ją na ułamek niewłaściwy.

a)

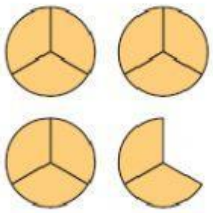

$3\frac{2}{3} = \frac{\square}{3}$

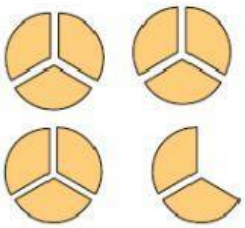

$3 \cdot 3 + 2 = 9 + 2 = 11$

b)

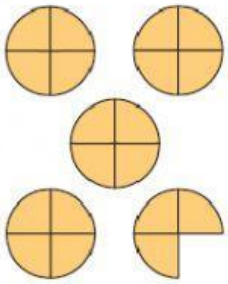

$\square\frac{\square}{\square} = \frac{\square}{\square}$

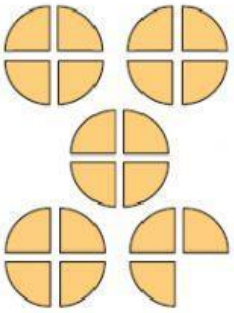

**6** Zamień liczbę mieszaną na ułamek niewłaściwy.

a) $1\frac{2}{3} = \frac{\square}{\square}$

b) $2\frac{4}{5} = \frac{\square}{\square}$

c) $3\frac{1}{6} = \frac{\square}{\square}$

LIVEWORKSHEETS

**7** Zamień ułamek niewłaściwy na liczbę mieszaną.

a) $\frac{7}{5} = 1\frac{\square}{5}$

b) $\frac{13}{6} = \square\frac{\square}{6}$

c) $\frac{8}{3} = \square\frac{\square}{\square}$

**8** Uzupełnij podpisy pod rysunkami.

Uzupełnij podpisy pod rysunkami.

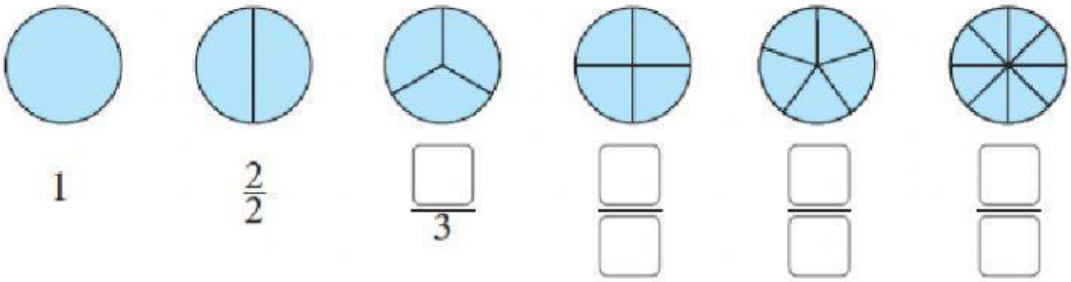

$1$ $\quad$ $\frac{2}{2}$ $\quad$ $\frac{\square}{3}$ $\quad$ $\frac{\square}{\square}$ $\quad$ $\frac{\square}{\square}$ $\quad$ $\frac{\square}{\square}$

LIVEWORKSHEETS