TRIÁNGULOS

(Resumen del Tema 11 del libro de texto)

Clases de triángulos, <u>según sus lados</u>:

1. Arrastra el nombre del triángulo al dibujo correspondiente:

	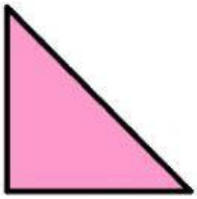	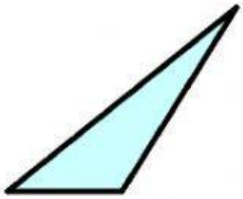

Isósceles	Equilátero	Escaleno

Clases de triángulos, <u>según sus ángulos</u>:

2. Completa el nombre de los triángulos según sus ángulos (obtusángulo, rectángulo o acutángulo):

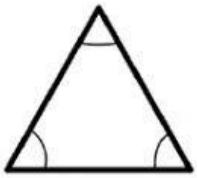	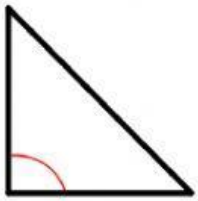	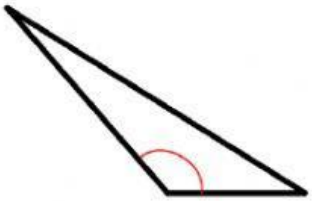
Triángulo _____ : 3 ángulos agudos.	Triángulo _____: 1 ángulo recto.	Triángulo _____: 1 ángulo obtuso.

LIVEWORKSHEETS