وزارة التربية والتعليم
مجلس 1 نطاق 3
مدرسة البريرات للتعليم الأساسي ح2

الصف السادس
المادة : الرياضيات
موضوع الدرس: مراجعة منتصف الوحدة التاسعة المساحة

الاسم: الشعبة:

**أوجد مساحة كل شكل.** (الدرسان 1 و 2)

3. _____

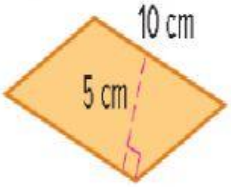


4. _____

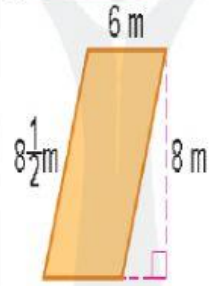


5. _____

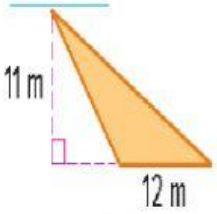


**أوجد البعد المجهول في كل شكل.** (الدرسان 1 و 3)

6. متوازي الأضلاع: $h = 5\frac{1}{4}$ m; $A = 12$ m$^2$

_____

7. شبه المنحرف: $b_1 = 3$ m; $b_2 = 4$ m; $A = 7$ m$^2$

_____

8. م.ر **استخدام نماذج الرياضيات** هناك طاولة زاوية على شكل شبه منحرف.

أوجد مساحة سطح الطاولة. (الدرس 3) _____

برنامج محمد بن راشد للتعلم الذكي
Mohammed Bin Rashid Smart Learning Program
LIVEWORKSHEETS