Latihan Gerak Balas Tumbuh-Tumbuhan

1. Perhatikan gambarajah di bawah. Kenal pasti bahagian tumbuhan yang bergerak balas dan jenis rangsangan yang menyebabkan gerak balas. Isikan tempat kosong menggunakan pilihan jawapan yang disediakan.

Akar	Daun	Akar	Pucuk
Sentuhan	Cahaya	Air	Graviti

Rajah	Bahagian Tumbuhan Yang Bergerak Balas	Jenis Rangsangan
		
		
		

Pengajar Wellter CR
PdPR @ SKSP

LIVEWORKSHEETS

2. Perhatikan gambarajah di bawah. Nyatakan pemerhatian yang boleh dibuat berkenaan gerak balas tumbuhan terhadap rangsangan. Isikan jawapan menggunakan pilihan jawapan yang disediakan.

Daun pokok semalu tertutup apabila disentuh	**Akar tumbuh ke arah air**
Pucuk tumbuh ke arah cahaya	**Akar tumbuh ke arah bawah**

Rajah	Gerak Balas Tumbuhan Terhadap Rangsangan (Pemerhatian)
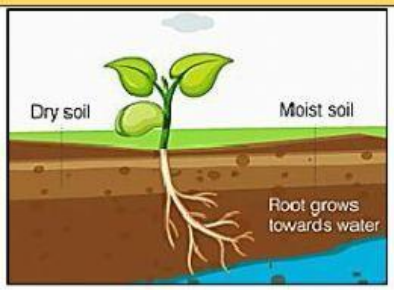 Rangsangan : Air	
Rangsangan : Sentuhan	
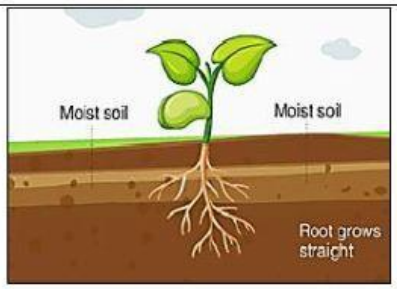 Rangsangan : Graviti	
Rangsangan : Cahaya	

Latihan Tamat

Pengajar Wellter CR
PdPR @ SKSP

LIVEWORKSHEETS