هيا ياعبقري الرياضيات أجب عن الأسئلة التالية

اختر الإجابة الصحيحة ممايأتي

- صعد الحافلة في المحطة الأولى ١٤ راكبا، وفي المحطة الثانية ٧ ركاب كم عدد الركاب في الحافلة بعد تحرك الحافلة من المحطة الثانية؟

الجملة العددية التي تعبر عن عدد الركاب هي.....

أ) ١٤+٧ ب) ١٤-٧ ج) ١٤×٧ د)١٤÷٧

- في المحطة الثالثة نزل (٥) ركاب ولم يركب أحد. كم عدد ما تبقى من الركاب داخل الحافلة؟

أكتب الجملة العددية التي تعبر عن ذلك



□ _ □ = □

كان مع معلم الصف ٢٤ قطعة حلوى. أراد أن يعطي قطعة حلوى واحدة لكل طالب

كان عدد طلاب الصف ٢١ طالبا كم قطعة حلوى تبقت؟

اختر الإجابة الصحيحة



أ)٣ ب)٢٤ ج) ٥ د) ٧

LIVEWORKSHEETS

- لدى يوسف ٣٠ قطعة حلوى .١٢ منها لونها أحمر، والبقية لونها أخضر.



سارة لديها ضعف كمية قطع حلوى يوسف الخضراء.
كم عدد قطع الحلوى لدى سارة؟

عدد قطع الحلوى الخضراء لدى يوسف هي

عدد قطع الحلوى لدى سارة هي

LIVEWORKSHEETS