OSSERVA I GRAFICI E COMPLETA

ESERCIZIO 1: Il grafico qui a fianco rappresenta il peso in kg di alcuni ragazzi iscritti ad un centro sportivo

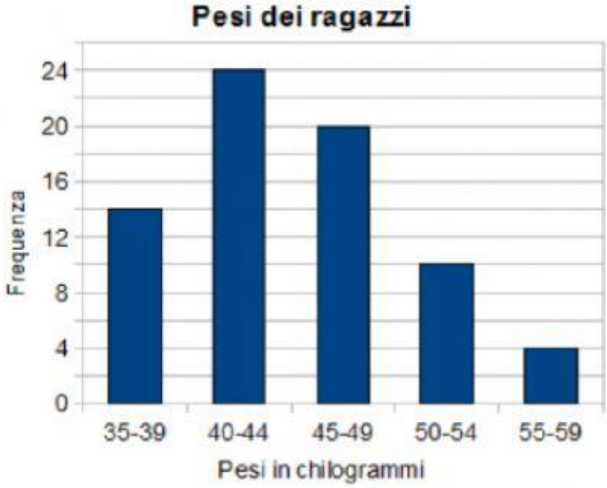

1) Quanti sono i ragazzi che pesano tra i 50 ed i 54Kg? .....
2) Quanti sono i ragazzi iscritti al centro sportivo? .....
3) Quanti ragazzi pesano MENO di 45kg? .....
4) Quanti ragazzi pesano PIU' di 49Kg? .....

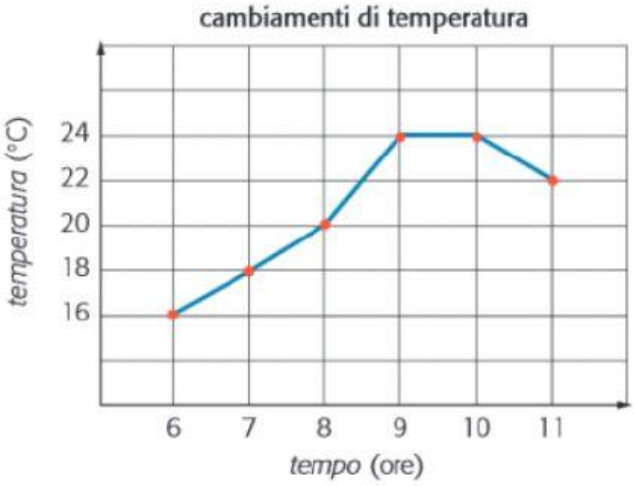

ESERCIZIO 2: Usa la rappresentazione grafica per rispondere alle domande:

1) Quale temperatura è stata registrata alle 7? ..... E alle 8? .....E alle 11? .....
2) Fra le 8 e le 9 la temperatura è calata, cresciuta o rimasta costante? ..... E fra le 9 e le 10? .....
3) A quale ora si è registrata la temperatura più bassa? .....E la più alta? .....

ESERCIZIO 3: Osserva l'ideogramma e rispondi alle domande:



1) In quale anno si sono prodotte più mele? .....In quale anno meno? .....
2) Quante tonnellate di mele si sono prodotte nel 2000? .....
3) In quale anno si sono prodotte 50 tonnellate di mele? ..... E 80? .....
4) Quante tonnellate di mele si sono prodotte in totale tra il 2000 e il 2003? .....

LIVEWORKSHEETS