Geometria 2: **POLÍGONS**

https://www.youtube.com/watch?v=AwdOocKn6m0

Un **POLÍGON** és una figura geomètrica plana que té tres o més costats formats per segments. Té costats, vèrtex, angles i una part interior que es diu àrea o superfície.

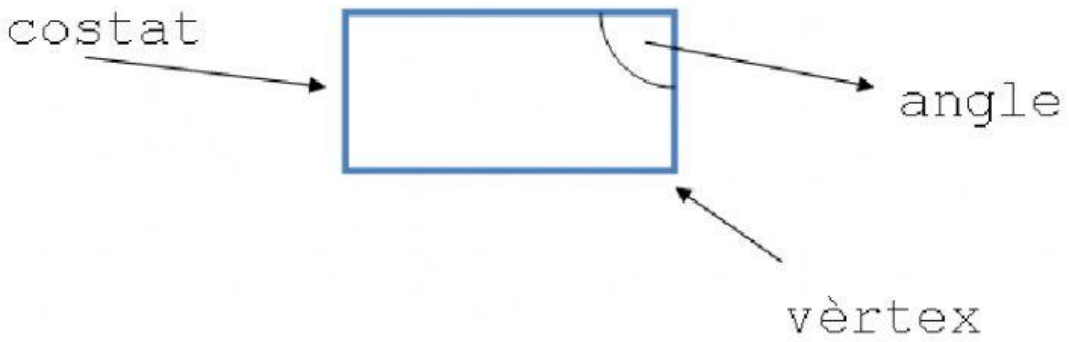


Noms dels polígons:

| Triangle | Quadrilàter | Pentàgon | Hexàgon |
|---|---|---|---|
| | | | |
| **Heptàgon** | **Octàgon** | **Eneàgon** | **Decàgon** |
| 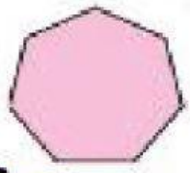 | | | |

LIVEWORKSHEETS

Pinta les figures planes que són polígons.



Escriu el nom d'aquests polígons i compta el nombre de costats, angles i vèrtexs.

| | | | | |
|---|---|---|---|---|
| Nom | | | | |
| Costats | | | | |
| Angles | | | | |
| Vèrtexs | | | | |

Relaciona cada figura amb el nom que reb segons el nombres de costats que té.



- triangle
- quadrilàter
- pentàgon
- hexàgon
- heptàgon

LIVEWORKSHEETS