PREFEITURA DE SANTOS
Secretaria de Educação

ROTEIRO DE ESTUDO/ATIVIDADES

UME: PADRE WALDEMAR VALLE MARTINS

ANO: **4°A e 4°B**

COMPONENTE CURRICULAR: **INTEGRADO**

PROFESSORAS: **MARCELA MARINS**
THAMIRIS PAPA

PERÍODO DE 29/03/2021 a 09/04/2021

ASSUNTO A SER ESTUDADO: **Números naturais**

EXPLICAÇÃO SOBRE O ASSUNTO ESTUDADO: Vamos aprender ainda mais sobre números, seus usos e suas escritas. Vai aprender mais sobre a adição e a subtração realizar cálculos mentais e escritos. Também explorará os formatos de objetos e medidas de tempo.

ATIVIDADE:

SEQUÊNCIA 1

VOCÊ E OS NÚMEROS

ATIVIDADE 1.1

CERTAMENTE VOCÊ JÁ SABE QUE OS NÚMEROS FAZEM PARTE DA NOSSA VIDA. USAMOS NÚMEROS ...

PARA CONTAR PESSOAS	PARA CONTAR OBJETOS
PARA INDICAR A DATA	PARA INDICAR AS HORAS
PARA NUMERAR CASAS	PARA ...

Arte: IMESP

1 COMPLETE O ÚLTIMO QUADRO COM UM DESENHO. DEPOIS COMPARE, COM OUTRA DUPLA, AS ANOTAÇÕES E O NÚMERO REGISTRADO.

QUAL É O MAIOR? QUAL É O MENOR?

LIVEWORKSHEETS

AGORA VAMOS PREENCHER UMA FICHA COM OS SEUS DADOS.

NOME	
IDADE	
DATA DE NASCIMENTO	
NÚMERO DE IRMÃOS	
ENDEREÇO DA MINHA CASA	
NÚMERO DO CEP	
NÚMERO DO MEU SAPATO	
MEU PESO	
MINHA ALTURA	

LIVEWORKSHEETS

PARABÉNS A VOCÊ, NESTA DATA QUERIDA...

1. O DIA DE NOSSO ANIVERSÁRIO É SEMPRE MUITO ESPECIAL. VOCÊ SABE POR QUÊ?

2. NO BOLO DE ANIVERSÁRIO, DESENHE A QUANTIDADE DE VELINHAS QUE INDICAM QUANTOS ANOS VOCÊ JÁ FEZ OU FARÁ ESTE ANO, E ESCREVA NO QUADRO AO LADO O SÍMBOLO NUMÉRICO QUE REPRESENTA ESSA IDADE.

Arte: IMESP

3. QUANTOS ANOS VOCÊ FARÁ NO ANO DE 2025?

4. VOCÊ SABIA QUE AS CIDADES TAMBÉM FAZEM ANIVERSÁRIO?
A TABELA ABAIXO INDICA A IDADE DE DUAS CIDADES EM 2019.

JACAREÍ – SP	366 ANOS
LORENA – SP	231 ANOS

QUAL DAS DUAS CIDADES ACIMA É A MAIS ANTIGA?

5. O MUNICÍPIO DE ARARAQUARA FEZ 202 ANOS EM AGOSTO DE 2019. VOCÊ SABE LER ESTES DOIS NÚMEROS? O QUE ELES TÊM EM COMUM?

ONDE FAZER: No caderno

ATIVIDADE PARA NOTA: SIM

DEVERÁ SER ENVIADA AO PROFESSOR: Sim, tirar foto e enviar no Google sala de aula ou e-mail da professora:
4°A Professora Marcela-
4°B Professora Thamiris - profathamirispapa@gmail.com

SUGESTÃO:

LIVEWORKSHEETS

ASSUNTO A SER ESTUDADO: **Formação de palavras**

EXPLICAÇÃO SOBRE O ASSUNTO ESTUDADO: Vamos completar as palavras c bastante atenção! São as mesmas sílabas estudadas nas semanas anteriores. Depois fa a leitura de todas as palavras.

ATIVIDADE:

Complete com LA – LE – LI – LO – LU – LÃO.

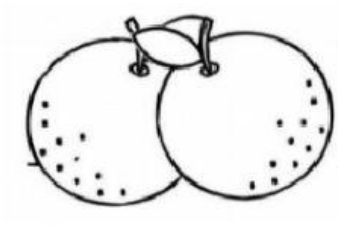

RANJA



MÃO

TA

QUE

VA

LIVEWORKSHEETS

Complete os nomes das figuras com:

BA .. BE.. BI.. BO.. BU.

_____NANA	_____LA	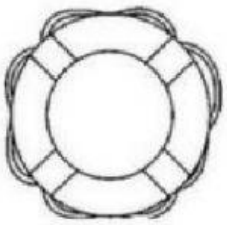 _____IA
 _____I	_____NECA	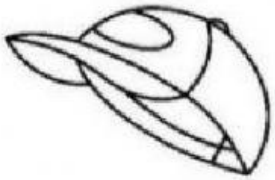 _____NÉ
_____LDE	_____LA	 _____Ú
 _____LO	_____LÃO	 _____LE

LIVEWORKSHEETS

1.Complete as palavras com as sílabas abaixo.

BA – BE – BI – BO – BU – BÃO.

___ LE	___LA	__NECA
___BÊ	___CA	____IA
____CICLETA	___DE	___BÁ
___I	___LO	___LEIA
___LA	___TA	A__CATE
____LACHA	___TATA	___LÃO
____LANÇO	____RACO	____NANA
____LHETE	CA___NA	___SOURO
____DU	____GODE	__CO
CA__DE	JA___TI	CA____

ONDE FAZER: No caderno

ATIVIDADE PARA NOTA: SIM

DEVERÁ SER ENVIADA AO PROFESSOR: Sim, tirar foto e enviar no Google sala de aula ou e-mail da professora:
4°A Professora Marcela-marcelamarinslima@educa.santos.sp.gov.br
4°B Professora Thamiris - profathamirispapa@gmail.com

SUGESTÃO:

LIVEWORKSHEETS

ASSUNTO A SER ESTUDADO:Chegada dos portugueses e mapa de Santos

EXPLICAÇÃO SOBRE O ASSUNTO ESTUDADO:Vamos aprender um pouco sobre chegada dos portugueses aqui em Santos e em São Vicente. Também veremos que Santos é dividida em 2 áreas.

ATIVIDADE:

Atividade 1. Mudanças e permanências

As Vilas de Santos e São Vicente

A cidade de Santos foi fundada por um grupo de portugueses que chegou ao Brasil em 1532. O capitão da expedição, Martim Afonso, saiu de Portugal com a função de encontrar ouro, fundar uma vila e distribuir terras.

A primeira vila do Brasil foi São Vicente. Martim Afonso também foi o responsável pela construção de um engenho de cana-de-açúcar.

1.Observe como o pintor Benedito Calixto, em 1900, imaginou a fundação da Vila de São Vicente.

Fonte: Disponível em: <http://www.pimentel.jor.br/santos/calixt31.htm>. Acesso em: 04/10/2020.

RESPONDA:

1)VOCÊ ACHA QUE JÁ MORAVA ALGUÉM AQUI QUANDO OS PORTUGUESES CHEGARAM? QUEM?

2)POR QUE SERÁ QUE OS PORTUGUESES QUERIAM ENCONTRAR OURO?

LIVEWORKSHEETS

Atividade 1: Onde eu vivo

a. Vivemos na mesma cidade. No entanto, sabemos que nem todos vivem do mesmo modo. Cada bairro tem as suas características de acordo com a paisagem do local. Há crianças que vivem em lugares movimentados, cheios de carros e barulhos incômodos, e outras que vivem perto de rios, cachoeiras e morros.

Fonte disponível em: https://pt.wikipedia.org/wiki/Santos#/media/Ficheiro:Santos-Mapa.JPG. Acesso em: 23/07/2020.

1. E você? Em que área da cidade você vive?

_____

2. Qual o nome do seu bairro?

_____

ONDE FAZER: No caderno
ATIVIDADE PARA NOTA: SIM
DEVERÁ SER ENVIADA AO PROFESSOR: Sim, tirar foto e enviar no Google sala de aula ou e-mail da professora: 4°A Professora Marcela-marcelamarinslima@educa.santos.sp.gov.br 4°B Professora Thamiris - profathamirispapa@gmail.com
SUGESTÃO:

LIVEWORKSHEETS

ASSUNTO A SER ESTUDADO: **A TERRA EM MOVIMENTO**

EXPLICAÇÃO SOBRE O ASSUNTO ESTUDADO: O planeta Terra está sempre em movimento, ele g como um pião, em torno de si mesmo, e gira em torno do Sol, como se estivesse brincando de corre cutia. Assist aos vídeos que estão lá no final da atividade para aprender mais sobre o assunto.

ATIVIDADE:

Complete as frases.

Quando a Terra gira em torno de si mesma, damos o nome de:

_____

Quando a Terra gira em torno do Sol, damos o nome de:

_____

O movimento de rotação leva _____ para acontecer.

Graças ao movimento de _____ nós temos a primaver

Marque corretamente

O movimento de rotação acontece no sentido:

( ) anti-horário ( ) horário

O movimento abaixo é de: ( ) rotação ( ) translação



LIVEWORKSHEETS