மீள்பார்வை பயிற்சி

கேள்வி 31 முதல் 40 வரை

சரியான விடையின் மீது 'கிளிக்' செய்க

31 Rani shared equally 840 mℓ of orange juice with 5 of her friends. How much orange juice does each of them get?

ராணி 840 mℓ ஆரஞ்சு பழச்சற்றை தன் 5 நண்பர்களுடன் சமமாகப் பகிர்ந்துகொண்டார்.

ஒருவருக்குக் கிடைத்த ஆரஞ்சு பழச்சாறு எவ்வளவு?

A 0.164 ℓ **C** 16.4 ℓ

B 0.14 ℓ **D** 14 ℓ

LIVEWORKSHEETS

32 Diagram 9 shows a square.

படம் 9, ஒரு சதுரத்தைக் காட்டுகிறது.

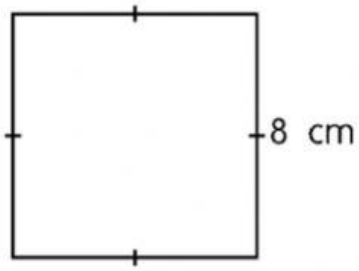

Diagram 9
படம் 9

Find the perimeter of the square.

அந்த சதுரத்தின் சுற்றளவைக் கணக்கிடுக.

A 24 cm **C** 40 cm

B 32 cm **D** 64 cm

LIVEWORKSHEETS

33 Diagram 10 shows a rectangle *ABCD* and a square *BWXC*.

படம் 10, ABCD எனும் செவ்வகத்தையும் BWXC எனும் சதுரத்தையும் காட்டுகிறது.

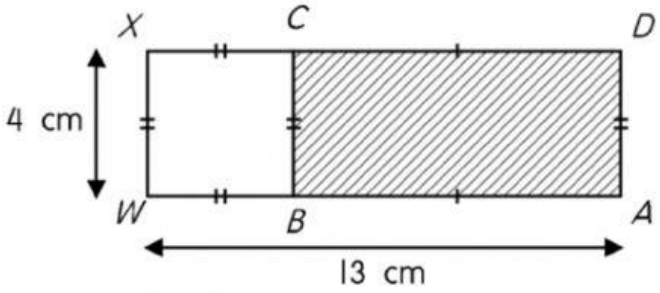

Diagram 10
படம் 10

What is the area of the shaded region?

கருமையாக்கப்பட்ட பாகத்தின் பரப்பளவு எவ்வளவு?

A 13 cm^2 **C** 27 cm^2

B 22 cm^2 **D** 36 cm^2

LIVEWORKSHEETS

34 Diagram 11 shows a cuboid.

படம் 11, ஒரு கனசெவ்வகத்தைக் காட்டுகிறது.

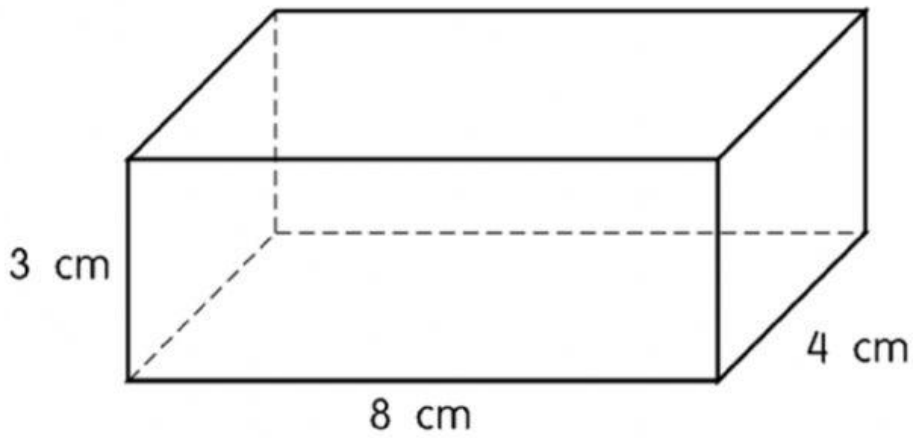

Diagram 11
படம் 11

What is the volume of the cuboid?

அந்த கனசெவ்வகத்தின் கன அளவு எவ்வளவு?

A 24 cm^3 **C** 96 cm^3

B 92 cm^3 **D** 100 cm^3

LIVEWORKSHEETS

35 The incomplete pictograph in Diagram 14 shows the number of mobile phone sold by 4 shops *S*, *T*, *U* and *V*.

படம் 14இல், முழுமை பெறாத படக் குறிவரைவு S, T, U, V ஆகிய நான்கு கடைகளில் விற்கப்பட்ட கைப்பேசிகளின் எண்ணிக்கையைக் காட்டுகிறது.

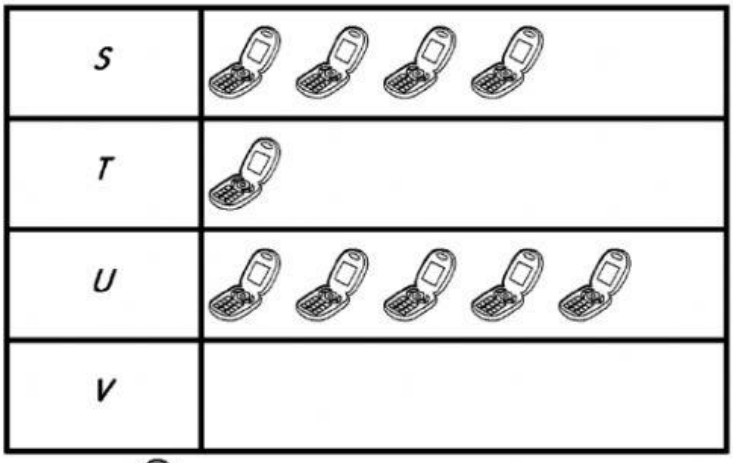

Represents 30 mobile phones
30 கைப்பேசிகளைப் பிரதிநிதிக்கின்றது

Diagram 12
படம் 12

The 4 shops together sold 360 mobile phones.

How many mobile phones were sold by shop *V*.

அந்த நான்கு கடைகளிலும் மொத்தம் 360 கைப்பேசிகள் விற்கப்பட்டன.

V கடையில் விற்கப்பட்ட கைப்பேசிகள் எத்தனை?

A 90 **C** 120

B 150 **D** 60

LIVEWORKSHEETS

36 Diagram 13 is a bar chart which shows the number of students in 4 schools *P*, *Q*, *R* and *S*.

படம் 13இல் காணப்படும் பட்டைக் குறிவரைவு P, Q, R, S ஆகிய பள்ளிகளில் பயிலும் மாணவர்களின் எண்ணிக்கையைக் காட்டுகிறது.

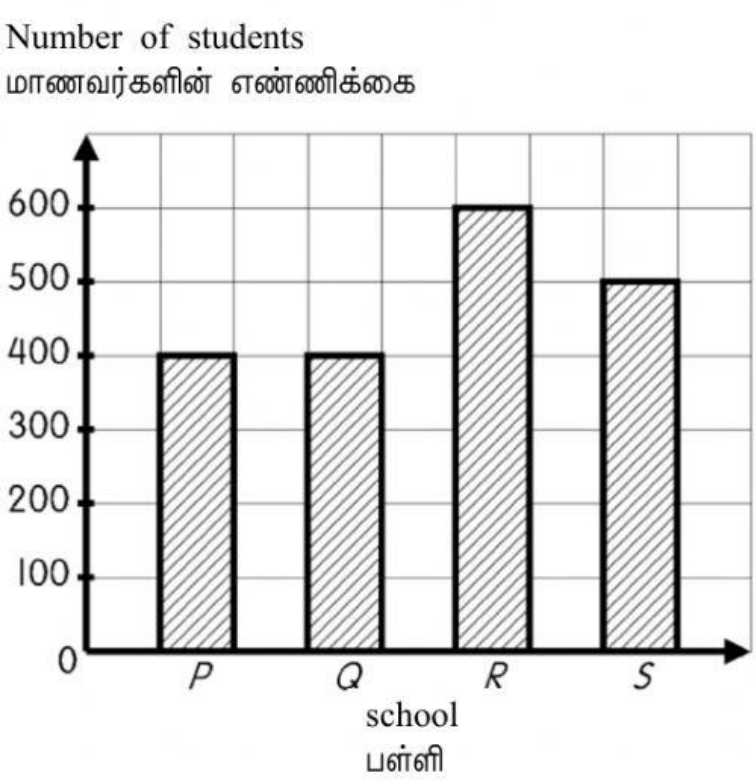

Diagram 13
படம் 13

Find the total number of students in these 4 schools.

அந்த நான்கு பள்ளிகளில் பயிலும் மாணவர்களின் மொத்த எண்ணிக்கை என்ன?.

A 400 **C** 1 400

B 800 **D** 1 900

LIVEWORKSHEETS

37 The incomplete bill in Table 1 shows the price of 3 types of fruits.

அட்டவணை 1இல் காணும் நிறைவு பெறாத விலைவிவரச் சீட்டு 3 பழங்களின் விலையைக் காட்டுகிறது.

Quantity எண்ணிக்கை	**Item** பொருள்	**Unit price** ஒன்றின் விலை	**Price** விலை
8	Oranges ஆரஞ்சு	RM0.10	RM0.80
10	Apples ஆப்பிள்	RM0.30	RM3.00
8	Papaya பப்பாளி		
		Total மொத்தம்	

Table 1
அட்டவணை 1

The total payment is 5 times the price for apples.
What is the unit price for a papaya?
அந்தப் பழங்களின் மொத்த விலை ஆப்பிளின் விலையில் 5 மடங்காகும்.
ஒரு பப்பாளியின் விலை என்ன?

A RM2.40 **C** RM2.70

B RM1.40 **D** RM3.20

LIVEWORKSHEETS

38 Table 2 shows the schedule of an express bus.

அட்டவணை 2, ஒரு விரைவுப் பேருந்தின் பயண அட்டவணையைக் காட்டுகிறது.

Station நிலையம்	**Arrival** வந்தடையும் நேரம்	**Departure** புறப்படும் நேரம்
S	6.46 a.m.	7.07 a.m.
T	8.51 a.m.	9.25 a.m.
U	11.23 a.m.	11.38 a.m.
V	12.55 p.m.	1.17 p.m.

Table 2
அட்டவணை 2

Which station does the bus stay the longest?

அந்த பேருந்து எந்த நிலையத்தில் மிக அதிக நேரம் நிறுத்தி வைக்கப்படுகிறது?

A *S* **C** *U*

B *T* **D** *V*

LIVEWORKSHEETS

39 Diagram 14 shows a square, *N*.

படம் 14, N எனும் ஒரு சதுரத்தைக் காட்டுகிறது.

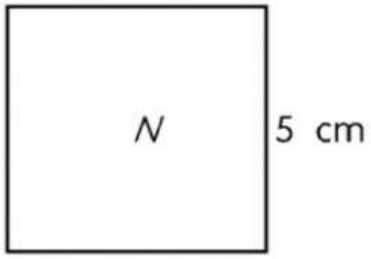

Diagram 14
படம் 14

Which of the following diagrams has the same perimeter as *N*?

பின்வருவனவற்றுள் எதன் சுற்றளவு Nஇன் சுற்றளவுக்குச் சமமாகும்?

A	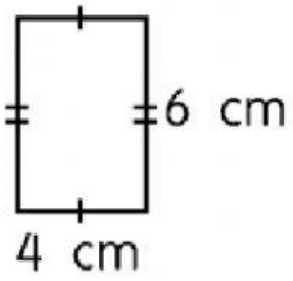	C	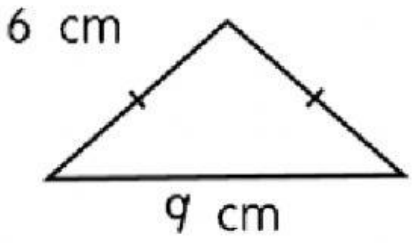
B	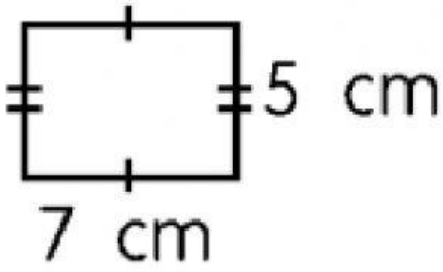	D	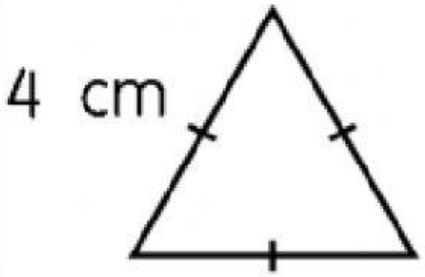

LIVEWORKSHEETS