ΚΕΦ.36 γ) ΔΕΚΑΔΙΚΟΙ ΑΡΙΘΜΟΙ –ΔΕΚΑΤΑ

(Νόπη Μαυροπούλου)

1. Συμπληρώνω τους αριθμούς που βρίσκονται ανάμεσα στο 4 και στο 5 και μετά:

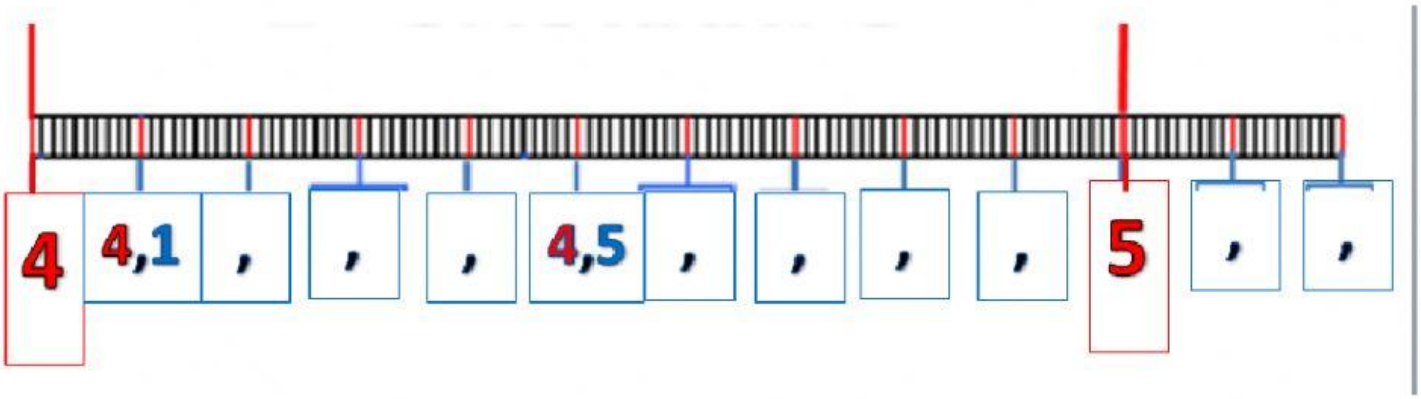

2. Βάλε την υποδιαστολή έτσι ώστε ο αριθμός 8 να δείχνει δέκατα.

458	3856	28	13287	7429811
_ , _	_ _ , _ _	_ , _	_ _ , _ _	_ _ _ , _ _

Ανεβαίνω την αριθμογραμμή **μισό μισό** (δηλαδή **5 δέκατα**

ή $\frac{5}{10}$

ή 0,5)

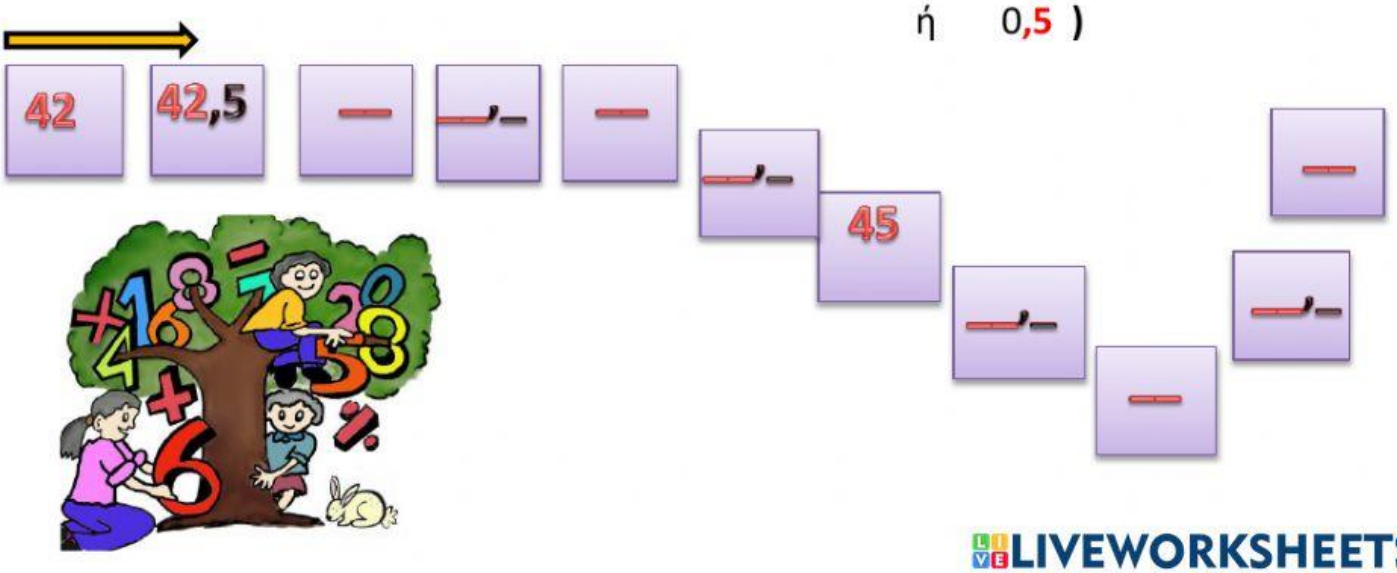

LIVEWORKSHEETS

3. Πόσο πυρετό έχει η Αγλαΐα;

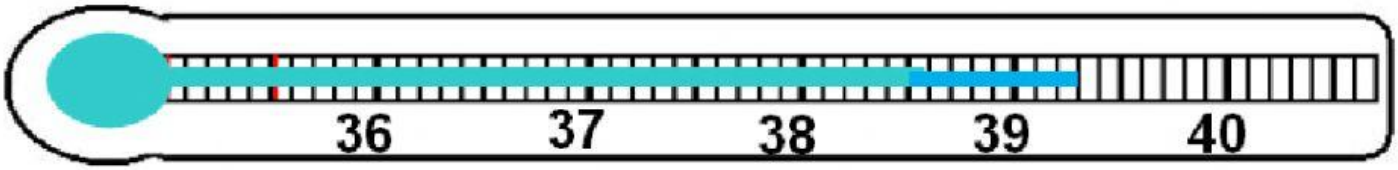

__,__

LIVEWORKSHEETS