الاسم:

8-1 مساحة المثلث وشبه المنحرف

1/ مساحة المثلث م = ----------

A) $\frac{1}{2}$ ق + ع	B) $\frac{1}{2}$ ق-ع	C) $\frac{1}{2}$ ق × ع	D) $\frac{1}{2}$ ق ÷ ع

2/ مساحة المثلث المجاور= ----------

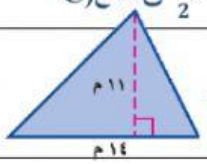

A) ٢٥ سم^{٢}	B) ٥٠ سم^{٢}	C) ٧٧ سم^{٢}	D) ١٥٤ سم^{٢}

3/ مساحة المثلث المجاور= ----------

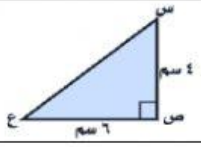

A) ٦ سم^{٢}	B) ١٠ سم^{٢}	C) ١٢ سم^{٢}	D) ٢٤ سم^{٢}

4/ مساحة المثلث المجاور= ----------

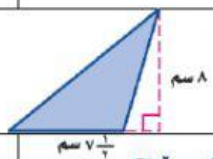

A) ١٥,٥ سم^{٢}	B) ٣٠ سم^{٢}	C) ٣١ سم^{٢}	D) ٦٠ سم^{٢}

5/ △ أ ب جـ طول قاعدته ٤ وحدات وارتفاعه ٨ وحدات، مساحة △ أ ب جـ = ----------

A) ١٢ سم^{٢}	B) ١٦ سم^{٢}	C) ٣٢ سم^{٢}	D) ٦٤ سم^{٢}

6/ مساحة شبه المنحرف م = ----------

A) $\frac{1}{2}$ ع + (ق١ + ق٢)	B) $\frac{1}{2}$ ع - (ق١ + ق٢)	C) $\frac{1}{2}$ ع × (ق١ + ق٢)	D) $\frac{1}{2}$ ع ÷ (ق١ + ق٢)

7/ مساحة قطعة الأرض المبينة في الشكل المجاور = ----------

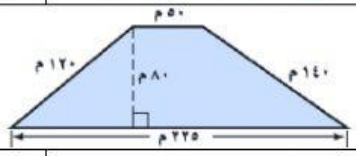

A) ١٠٤٠٠ م^{٢}	B) ٢٠٨٠٠ م^{٢}	C) ٢٢٠٠٠ م^{٢}	D) ١١٠٠٠ م^{٢}

8/ شبه منحرف طولا قاعدتيه ٥ سم وَ ١٢ سم، وارتفاعه ٧ سم؛ فمساحته = ----------

A) ٥٩,٥ سم^{٢}	B) ٧٢ سم^{٢}	C) ٩٥ سم^{٢}	D) ١١٩ سم^{٢}

9/ مساحة شبه المنحرف المجاور= ----------

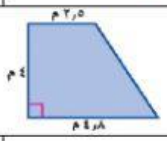

A) ١٤,٦ سم^{٢}	B) ٢٩,٢ سم^{٢}	C) ٣١,٢ سم^{٢}	D) ٦٤ سم^{٢}

10/ المساحة التقريبية لشبه المنحرف المجاور≈ ----------

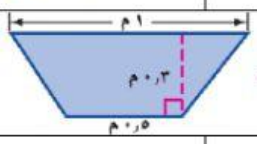

A) ٠,٢ سم^{٢}	B) ٠,٤ سم^{٢}	C) ٠,٦ سم^{٢}	D) ١,٨ سم^{٢}

تصرف كما لو أنه من المستحيل أن تفشل

غنياتي لكِ بالفوق/
معلمتك المحبة/ د. إيمان التركي

LIVEWORKSHEETS