UZDEVUMS! **Papildini tekstu un attēlus!**

Balstaudi piešķir augiem izturību un _____.

Balstaudu šūnām ir_____šūnapvalki.

Balstaudi ir sastopami visa auga organismā, bet ļoti daudz balstaudu ir _____.

Arī riekstu cietos "kažociņus" veido _____.

Attēlā balstaudi ir apzīmēti ar ciparu _____.

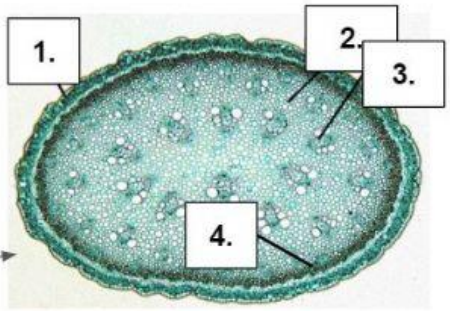

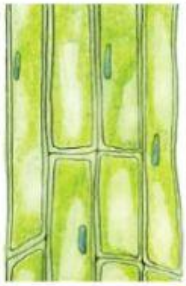



Arī vadaudi augu orgāniem piešķir _____ un elastību.

Kad daudz vadaudu apvienojās, tos sauc par _____.

Attēlā tie ir apzīmēti ar burtu ___

_____ – garas, nedzīvas, cauruļveida šūnas, kas vada ūdeni un tajā izšķīdušās minerālvielas no saknēm pa stumbru uz lapām.

LIVEWORKSHEETS