الهدف	مراجعة معلومات الحصة السابقة	
اسم الطالبة - الصف		ثامن /

قياس مستوى الفهم

1	ماذا يسمى الكسر الذي يحدث في الغلاف الصخري للأرض ؟ A. القشرة . B. الصدع. C. البؤرة .	A B C
2	ما نوع الصدع الظاهر في الشكل ؟ A. عادي . B. معكوس . C. انتقالي . 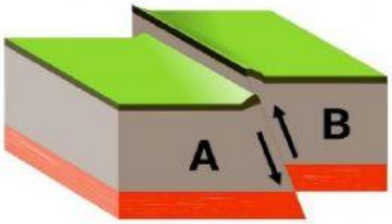	A B C
3	ما نوع الصدع الظاهر في الشكل ؟ A. عادي . B. معكوس . C. انتقالي . 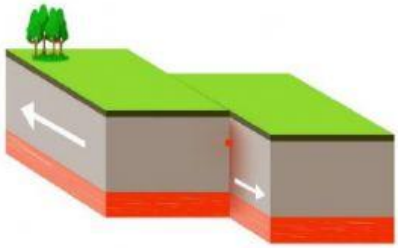	A B C
4	ما نوع الصدع الظاهر في الشكل ؟ A. عادي . B. معكوس . C. انتقالي . 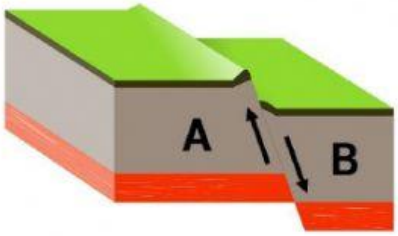	A B C

LIVEWORKSHEETS