3 LIIKLUSMÄRGID

Nimi _____

Õigeid vastuseid

Leia igale küsimusele 1 õige vastus ja märgi see ristikesega.

1 Milline liiklusmärk nõuab jalgratturilt kohustuslikku peatumist ristmiku ees?

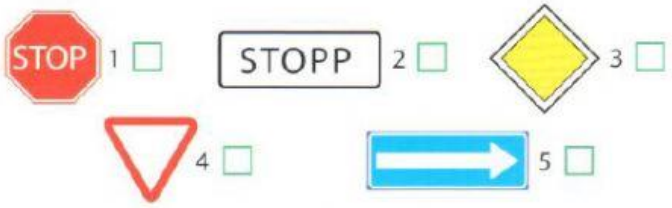

2 Milline liiklusmärk lubab jalgrattaga sõitu jätkata?



3 Milline liiklusmärk näitab, et jalgrattur sõidab peateel?

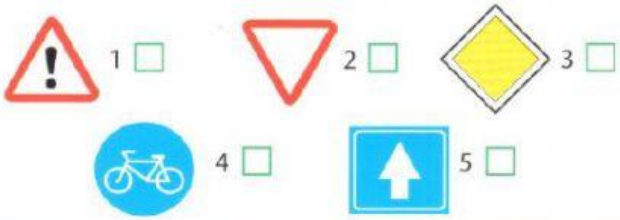

4 Milline liiklusmärk keelab jalgrattaga sõitu jätkata?

5 Milline liiklusmärk kohustab jalgratturil ristmikul pöörama ainult paremale?

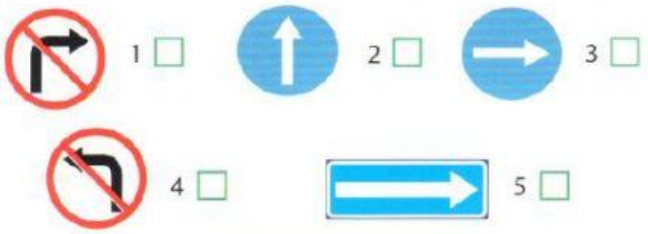

6 Milline liiklusmärk keelab jalgratturil edasi sõita?

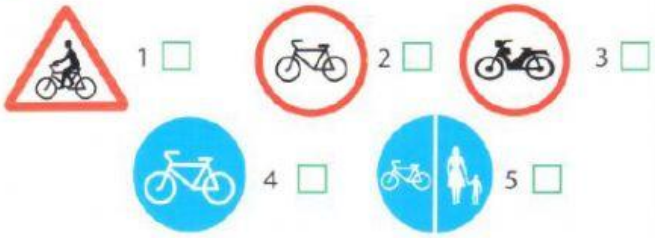

7 Milline liiklusmärk kohustab jalgratturit andma teed jalakäijale?

8 Milline liiklusmärk näitab, et jalgrattur sõidab kõrvalteel?

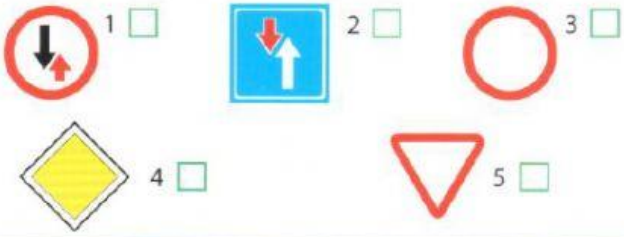

9 Milline liiklusmärk näitab, et jalgrattur sõidab ühesuunalisel teel?

10 Milline liiklusmärk keelab vasakpöörde?

LIVEWORKSHEETS