مملكة البحرين
وزارة التربية والتعليم
مدرسة وادي السيل ب . ع للبنين

المادة : رياضيات

اسم الطالب /

الصف : ٥ ب

نشاط (الانعكاس)

(١) حدد الإجابة الصحيحة التي تصف انعكاس المثلث ل م ن حول المحور الأفقي على المستوى الإحداثي للشكل التالي: (بالضغط على الإجابة).

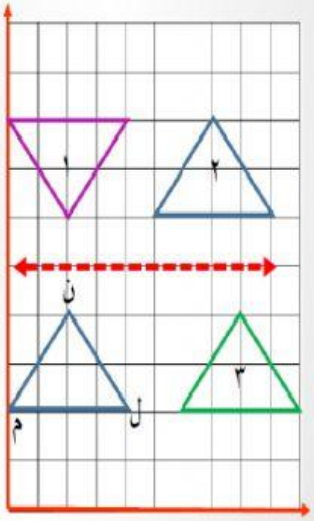

المثلث ١

المثلث ٢

المثلث ٣

(٢) حدد النقطة التي ستكون أحد رؤوس صورة المثلث المرسوم على المستوى الإحداثي دون أن تتغير: (بالضغط على الإجابة).

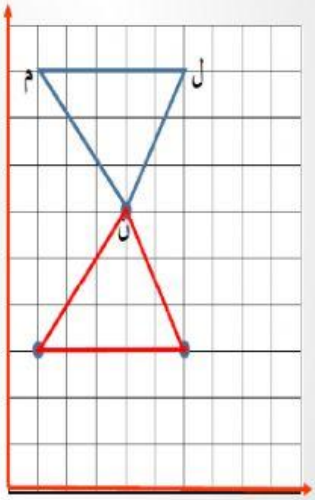

(٣،١)

(٣،٦)

(٦،٤)

(٣) اكتشف الخطأ: رسم **يزيد** و **طلال** انعكاسا لمثلث حول محور عمودي .

يزيد

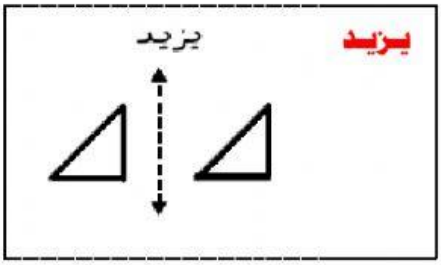

طلال

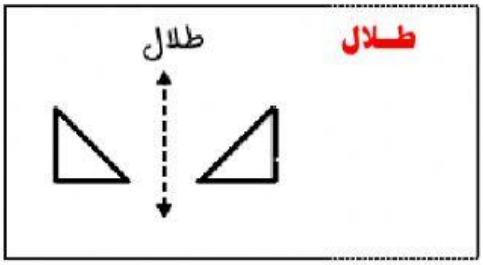

أيهما كان رسمه صحيحا **يزيد** أم **طلال**

شعار الرياضيات لهذا الأسبوع

دائما يوجد لك مكان في القمة

ركن التعلم الذاتي

لمراجعة الدرس يمكنك في تطبيق اليوتيوب والبحث عن عنوان الدرس

LIVEWORKSHEETS