الاسم والتاريخ .....

أعْتَمِدُ على نَفْسيَ

حوِّط الأوْجُهَ الَّتي تُكَوِّن الشكْلَ.

4.

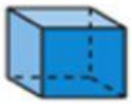



5.



حوِّط الشكل ثلاثي الأبعاد الَّذي تُكَوِّنُه الأوجُهُ عَلى اليَسارِ.

6.

7.

8. أيٌّ من هذه الأشكالِ لا يَضُمُّ مَرَبَّعا من بين أوجهِهِ؟

LIVEWORKSHEETS