РОЗВ'ЯЗУЄМО ЗАДАЧІ

1 Розв'яжи задачу арифметичним методом.

На 6 однакових скатертин кравчиня витратила 30 м тканини. Скільки метрів тканини потрібно на 4 скатертини?

6 шт. – 30 м
4 шт. — ?

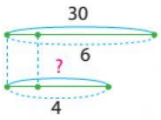

1) ( )
2) ( )

Склади та розв'яжи обернені задачі.

Перша обернена задача: 6, 30, ?, □

6 шт. - 30 м
? - м

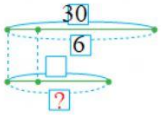

1) ( )
2) ( )

Друга обернена задача: 6, ?, 4, □

6 шт. - ?
4 шт. - м

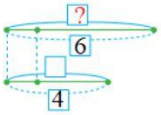

1) ( )
2) ( )

Третя обернена задача: ?, 30, 4, □

? - 30 м
4 шт. - м

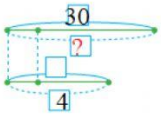

1) ( )
2) ( )

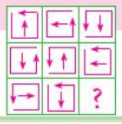

Геометрична хвилинка

2 Знайди значення часток, виконавши за схемами скорочені записи розв'язань. Знайди значення добутків.

68 : 4 = . .
. . + 40

135 : 9 =
. + 90

96 : 8 =
. + .

95 : 5 =
. + .

36 : 3 = . .
. + . .

153 : 9 =
. + .

152 : 8 =
. + .

84 : 7 =
. + .

26 · 7 =
3 · 45 =

126 · 4 =
22 · 6 =

15 · 7 =
42 · 5 =

9 · 12 =

3 Запиши числа, які більші за 7, але менші від 70, і діляться на 7 націло. Кожне з них збільш у 10 разів. Чи ділитимуться одержані числа на 7 без остачі?

14,
140,

4 Виконай ділення з остачею, зроби перевірку.

58 : 7 = (ост.)
36 : 8 = (ост.)
85 : 9 = (ост.)
40 : 7 = (ост.)

Самооцінювання

Мій настрій:

Завдання для мене були:

- □ Дуже легкі
- □ Легкі
- □ Не знаю
- □ Складні
- □ Дуже складні

Чи достатньо зусиль докладено?

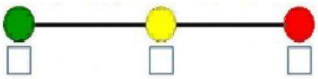

LIVEWORKSHEETS