COMPER

FIȘĂ DE CONCURS

Concursul Școlar Național de Competență și Performanță COMPER

- clasa pregătitoare -

COMPER-**MATE 2000, ETAPA I I** 2013-2014

① *Toate subiectele sunt obligatorii.*
② *Timpul efectiv de lucru este de 40 de minute.*
③ *Cerințele vor fi citite de învățător.*

PUNCTAJ:

PREMIU:

NUME ELEV: .....

MENTOR/ȘCOALĂ : .....

1 Copiii au plantat în grădina școlii 2 lalele galbene, 3 lalele roșii și 5 lalele mov. Câte lalele au plantat în total copiii?



a. 9 b. 10 c. 7 d. 11

2 Dintre lalelele plantate s-au prins un număr impar de lalele, dar nu mai mic de 8. Numărul lalelelor rămase în grădină este:

a. 7 b. 5 c. 8 d. 9

3 Scufița Roșie pune în coș pentru bunicuța doar florile pe care sunt scrise numerele mai mari decât 26 și mai mici decât 30. Acestea sunt:



a. 26, 27,28 b. 28, 29, 30 c. 27, 28, 29 d. 28, 29, 30

LIVEWORKSHEETS

4 Fluturele o ajută pe Scufiță să găsească floarea cu numărul cel mai mare. Calculează și tu, apoi încercuiește răspunsul corect.



a. 27 **b.** 10 **c.** 23 **d.** 13

5 Dintre cei 5 cozonaci pe care mama i-a trimis bunicii, Scufița a fărâmițat doi pentru păsărele, unul pentru gâze. Câți cozonaci au rămas în coș pentru bunica?



a. 1 **b.** 3 **c.** 2 **d.** 4

6 Privește cu atenție zilele marcate cu cerculeț roșu, pe fila de calendar, pentru a afla în ce zile copiii participă la competiții sportive. Ultima zi de competiție este într-o zi de:

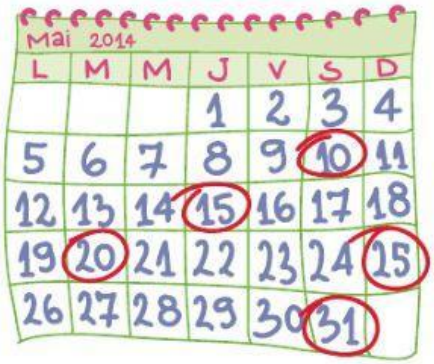

a. Marți **b.** Sâmbătă **c.** Vineri **d.** Joi

LIVEWORKSHEETS

7 Unește obiectele cu formele geometrice cu care se aseamănă. Numărul obiectelor cu formă de triunghi este:





a. 5 **b.** 7 **c.** 3 **d.** 10

8 Într-un magazin de jucării sunt așezate pe un raft 5 păpuși. Privește prețurile acestora și încercuiește-o pe cea mai ieftină. Prețul cel mai mic este:

a. 19 lei **b.** 27 lei **c.** 12 lei **d.** 8 lei

9 Află numerele ascunse de buburuze.

2 + = 7 | 9 – = 6 | + 5 = 5 | – 4 = 6

a. 5, 3 , 0, 10 **b.** 3, 5, 10, 0 **c.** 0, 10, 3, 5 **d.** 10, 3, 0, 5

LIVEWORKSHEETS