كن معي

وخذ بيدي

درس: الموقع والاتجاه

حدد الأشكال التي ينطبق عليها عدد خطوط التماثل:

شكل يمكن رسم ٣ خطوط تماثل له.

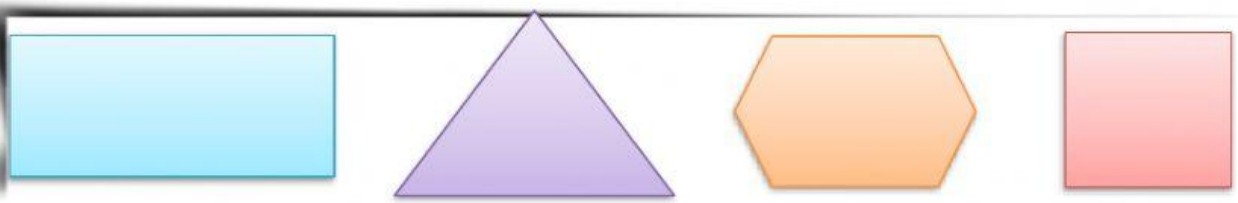

شكل يمكن رسم ٤ خطوط تماثل له.

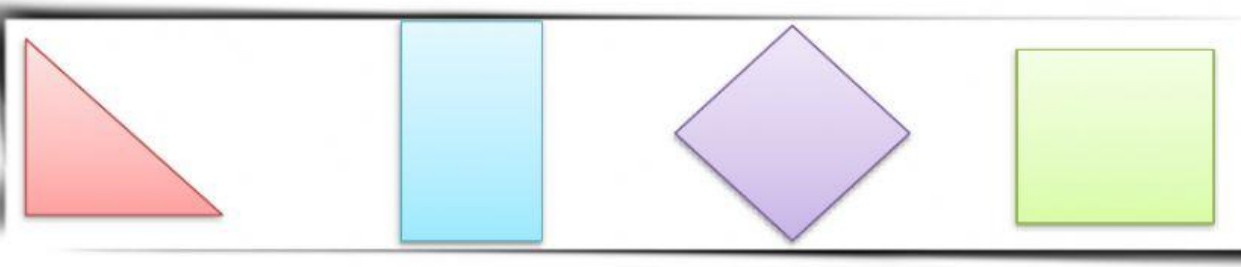

شكل يمكن رسم عدد غير منتهي من خطوط التماثل له.

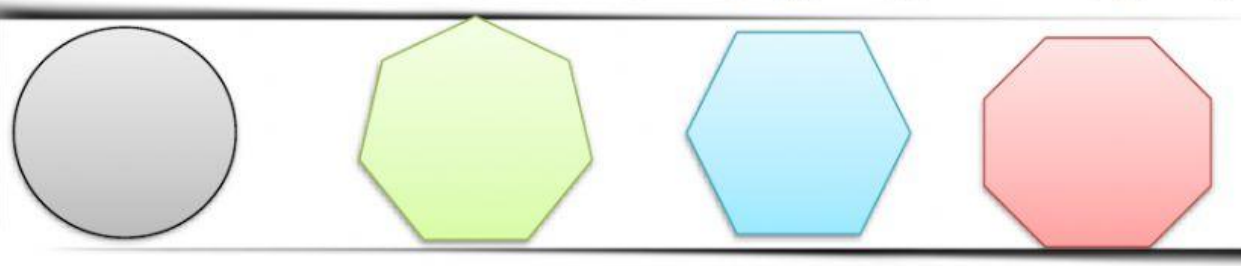

شكل يمكن رسم خط واحد للتماثل له.



شكل يمكن رسم خطين من خطوط التماثل له.



فاطمة عبدالله درويش الشحية

LIVEWORKSHEETS