Nimi .....

ELUNDID, ELUNDKONNAD.

1. Kirjuta mõisted ringidesse.
   KUDE ELUNDKOND ELUND RAKK

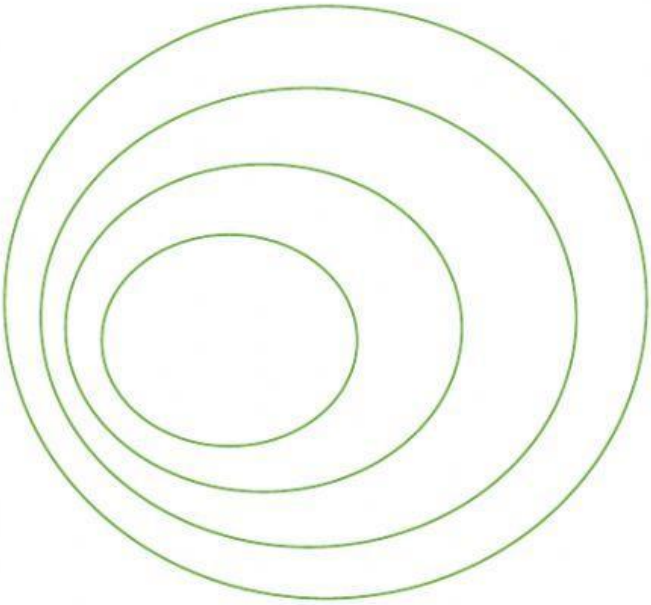

2. Millised elundid on joonisel kujutatud?

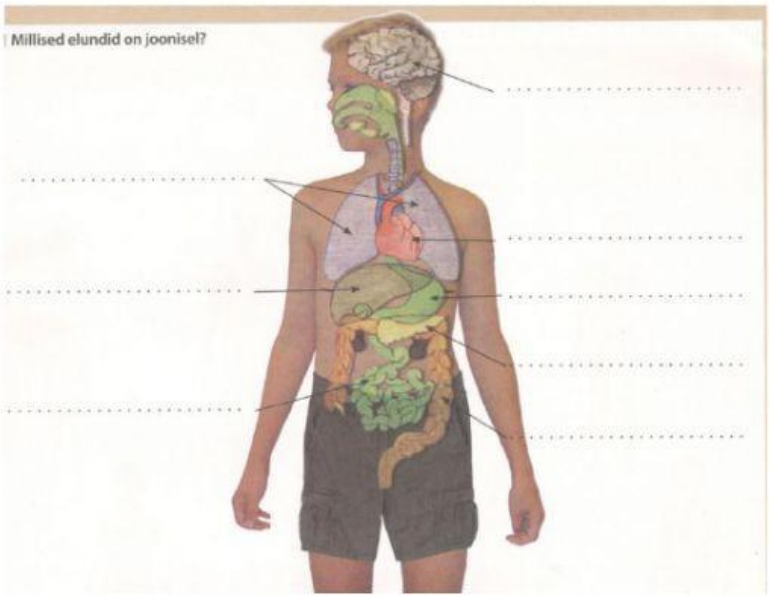

LIVEWORKSHEETS

3. Kirjuta, mis elundkonda on pildil kujutatud ja alumisele joonele vali välja ja märgi õige numbriga, mis ülesannet see elundkond täidab.

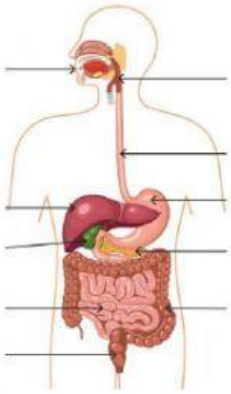

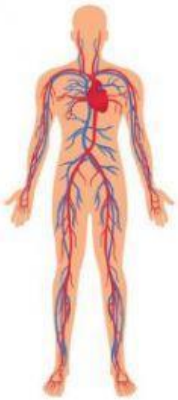

....
....

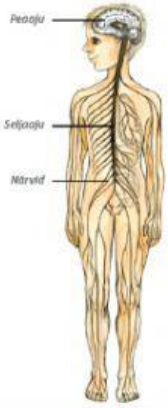

....
....

1. Keha toestamine ja liigutuste sooritamine
2. Kõikide elundite töö korraldamine
3. Keha varustamine verega
4. Keha jääkainetest vabastamine
5. Keha kaitsmine
6. Järglaste saamine
7. Toidu seedimine
8. Keha hapnikuga varustamine

4. Mis elundkonna moodustavad järgmised elundid

Ninaõõs, kõri, hingetoru, kopsutorud, kopsud.....
Süda, veresooned .....
Silmad, kõrvad, nina, keel, nahk.....

LIVEWORKSHEETS