Name: _____

Datum: _____/_____/_____

Gestalte zweie Skelette aus Puzzleteilen. **(Drag und Drop).**

a) Ziehe die Puzzleteile der beiden Skelette an die richtige Stelle in der Kästchenfläche.

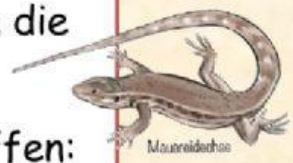

b) Beschrifte das Skelett mit folgenden Begriffen: **Schädelknochen, Wirbelsäule, Beckenknochen, Handskelett, Fußskelett, Eichhörnchen und Eidechse.**

LIVEWORKSHEETS

Schädelknochen

Fußskelett

Beckenknochen

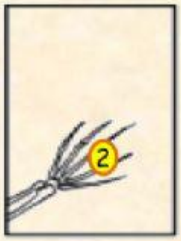

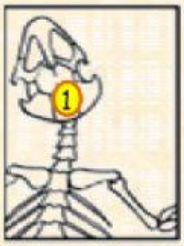

Handskelett

Wirbelsäule

1

2

3

4

5

LIVEWORKSHEETS

Handskelett

1

2

3

4

5

Fußskelett

Wirbelsäule

Beckenknochen

Schädelknochen

LIVEWORKSHEETS