اسم الطالبة : .....

الصف : الخامس

قياسي سر نجاحي عن بعد

اختبار تقويم (١٢)

الفيديوهات				

السؤال الأول : أكملي الفراغات : **ملحوظة س = صول الضلع**

محيط المستطيل = ... + ... مساحة المستطيل = ... × .....

محيط المربع = ... × ..... مساحة المربع = ... × .....

حجم المنشور = ... × ..... × .....

السؤال الثاني : اختاري الإجابة الصحيحة من بين الإجابات بوضع دائرة حولها :

١	محيط المضلع المجاور هو 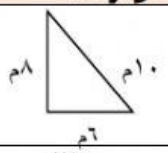							
	أ	٢٠	ب	٢٢	ج	٢٤	د	٢٦
٢	محيط مربع طول ضلعيه ٥ سم هو 							
	أ	١٠	ب	٢٠	ج	٣٠	د	٤٠
٣	قدري مساحة الشكل المجاور 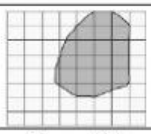							
	أ	١٢ وحدة مربعة	ب	١٥ وحدة مربعة	ج	١٨ وحدة مربعة	د	٢١ وحدة مربعة
٤	مساحة الشكل المجاور 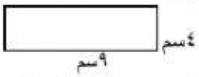							
	أ	١٨م٢	ب	٢٦م٢	ج	٢٧م٢	د	٣٦م٢
٥	ما مساحة مربع طول ضلعه ٢٠م 							
	أ	٤٠م٢	ب	٨٠ م٢	ج	٢٠٠م٢	د	٤٠٠م٢
٦	حجم الشكل المجاور هو 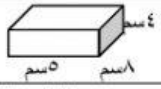							
	أ	١٨٠سم٣	ب	١٦٠سم٣	ج	١٤٠سم٣	د	١٢٠سم٣
٧	حجم علبة ثقاب طولها ٦سم وعرضها ٤سم وارتفاعها ٤سم هو							
	أ	٩٢سم٣	ب	٩٤سم٣	ج	٩٦سم٣	د	٩٨ سم٣
٨	إذا كانت مساحة المستطيل أدناه ٢٧سم٢فما قيمة ص ؟ 							
	العرض =		الطول =		المساحة =			

الدرجة من ١٠		توقيع المعلمة	زهور يوسف هوسه

LIVEWORKSHEETS