Anápolis, ___ de abril de 2021. **Disciplina: Geografia**

Aluno (a): _____

Professor (a): Sara Batista Silva **6º ANO** **1º Bimestre**

COUTO 1932 MAGALHÃES

RETOMADA DE ESTUDO FUSOS HORÁRIOS

1. É meio dia em Brasília. Que horas serão em Rio Branco-Acre?

Serão 10:00 h

Serão 9:00 horas

Serão 22:00 horas

Serão 21:00 horas

2. De acordo com o mapa do Brasil de fusos horários, quantas horas Fernando de Noronha está atrasado em relação a Greenwich?

2 horas 3 hora 4 horas 5 horas

3. Em Brasília, são 23 horas. Que hora será na Bahia?

21 horas 23 horas 20 horas 2 horas

4. São 8:00 horas no Mato Grosso do Sul, que horas são em Minas Gerais?

9 horas 8 horas. 7 horas 10 horas

5. São 9 hora em Minas Gerais, que horas são em Rondônia?

6 horas. 5 horas. 8 horas. 7 horas.

LIVEWORKSHEETS

6. Quantos fusos horários existem no mundo?

12 20

24 15

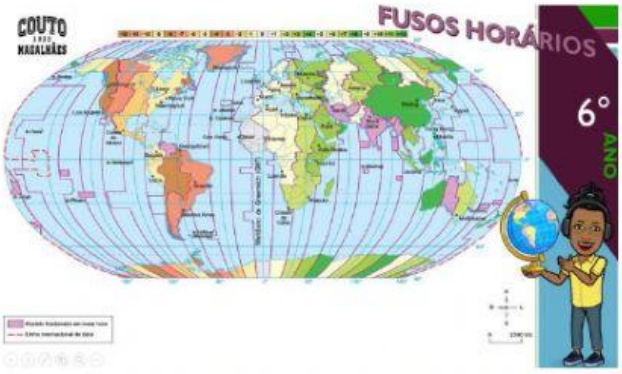

7. Quantos graus tem um fuso horários?

24º 15º

360º 4º

8. A distância, em graus, entre Brasília e Roma é de 45°. Se em Brasília são 15 horas, que horas são em Roma? Lembre-se de que o horário, em Roma, está sempre adiantado em relação com o de Brasília.

10 horas 11horas 12 horas 18 horas

9. As partes do mundo onde já é amanhã, estão ...

a leste a oeste ao norte ao sul

10. A linha imaginária, que corresponde ao marco inicial(0º) dos fusos horários, é:

Trópico de Capricórnio
Meridiano de Greenwich
Círculo Polar Ártico
Linha do Equador

11. Ao dividir os 360 graus da esfera terrestre pelas 24 horas de duração do movimento de _____, o resultado é 15 graus. A cada 15 graus que a Terra gira, passa-se uma hora. Assim, cada uma das 24 divisões da terra corresponde a um _____.

translação e meridiano. translação e paralelo.

rotação e círculo. rotação e fuso horário.

12. Na divisão do planeta em diversos fusos horários, acrescenta-se 1 hora a leste do Meridiano de Greenwich e retira-se 1 hora a oeste desse mesmo meridiano a cada:

25º 0,5º 10º 15º

13. Madri e Santiago estão a 60º distantes. Se em Madri são 10 horas, que horas são em Santiago? Lembre-se de que o horário, em Santiago, está atrasado em relação ao de Madri.

6 horas 7 horas 12 horas 13 horas

LIVEWORKSHEETS

14. Sobre a localização do território brasileiro, marque a alternativa correta.

todo o território nacional encontra-se no Hemisfério Sul.

a capital, Brasília, encontra-se a leste de Greenwich.

o Brasil localiza-se totalmente no hemisfério Norte.

os dois paralelos que cruzam o território nacional são a linha do Equador e o Trópico de Capricórnio.

15. O ponto **C** localiza-se a:

20ºS 40ºL 20ºN 40ºO 20ºS 20ºL 40º O 20ºN

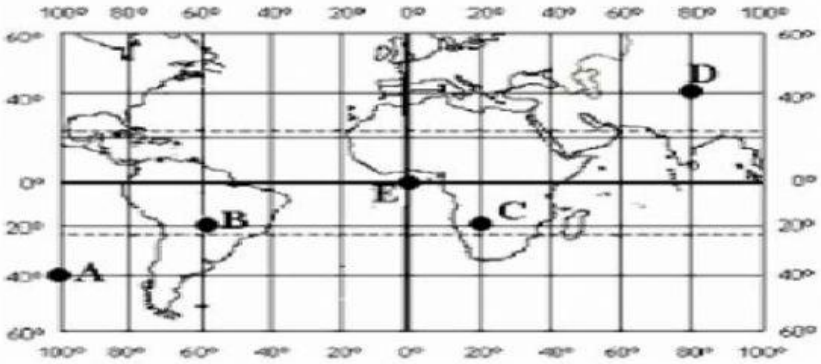

16. As coordenadas do lugar **A** são...

100º oeste e 50º Norte

49º norte e 99º Leste

50º sul e 100º Oeste

50º Norte e 100º Oeste

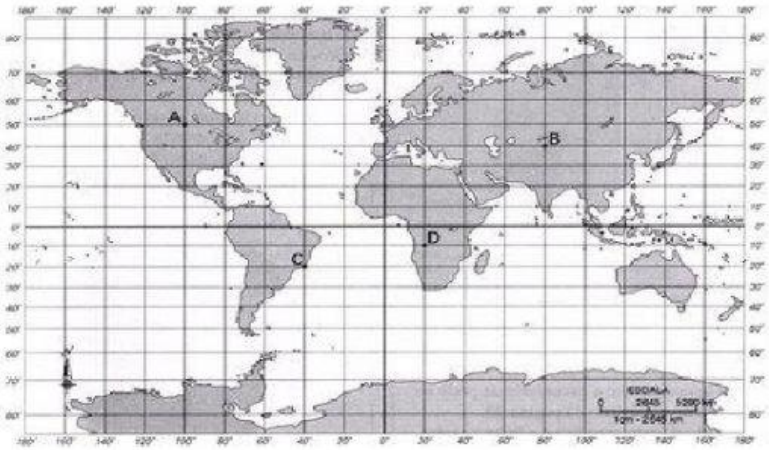

Fico muito feliz com tanta dedicação...

BEIJOCAS!!!

LIVEWORKSHEETS