الدرس (١٢-٤): الكسور المتكافئة

س١: أكتب الكسور المكافئة بالاستعانة بالرسم فيما يلي :

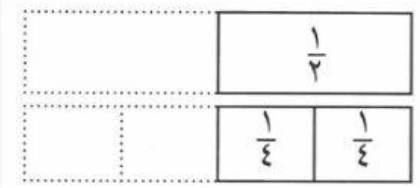

$\frac{١}{٢} = \frac{\quad}{٤}$

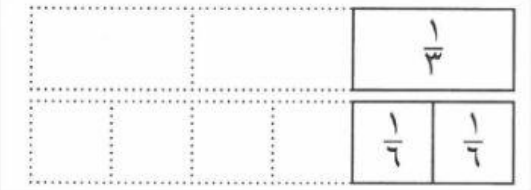

$\frac{١}{٣} = \frac{\quad}{٦}$

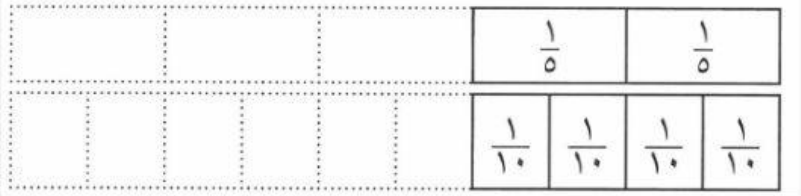

$\frac{٢}{٥} - \frac{\quad}{١٠}$

س٢: أكمل كل جملة لأحصل على كسرين متكافئين:

$\frac{١}{٤} = \frac{\quad}{٨}$	$\frac{٣}{٥} = \frac{\quad}{١٠}$	$\frac{٣}{٦} = \frac{\quad}{١٢}$
$\frac{١}{٢} = \frac{\quad}{١٢}$	$\frac{٢}{٨} = \frac{\quad}{٤}$	$\frac{٦}{١٢} = \frac{\quad}{٤}$
		$\frac{\quad}{٢} = \frac{\quad}{٨}$

إعداد: أ. زينب جاسم

LIVEWORKSHEETS