Έμβια- Άβια

ΤΕΣΤ ΣΤΗ ΦΥΣΙΚΗ

Όνομα:……..

Έμβια - Άβια

1. Να ονομάσεις τα βασικά μέρη των παρακάτω κυττάρων: (γράφω μόνο με κεφαλαία και χωρίς τόνους)

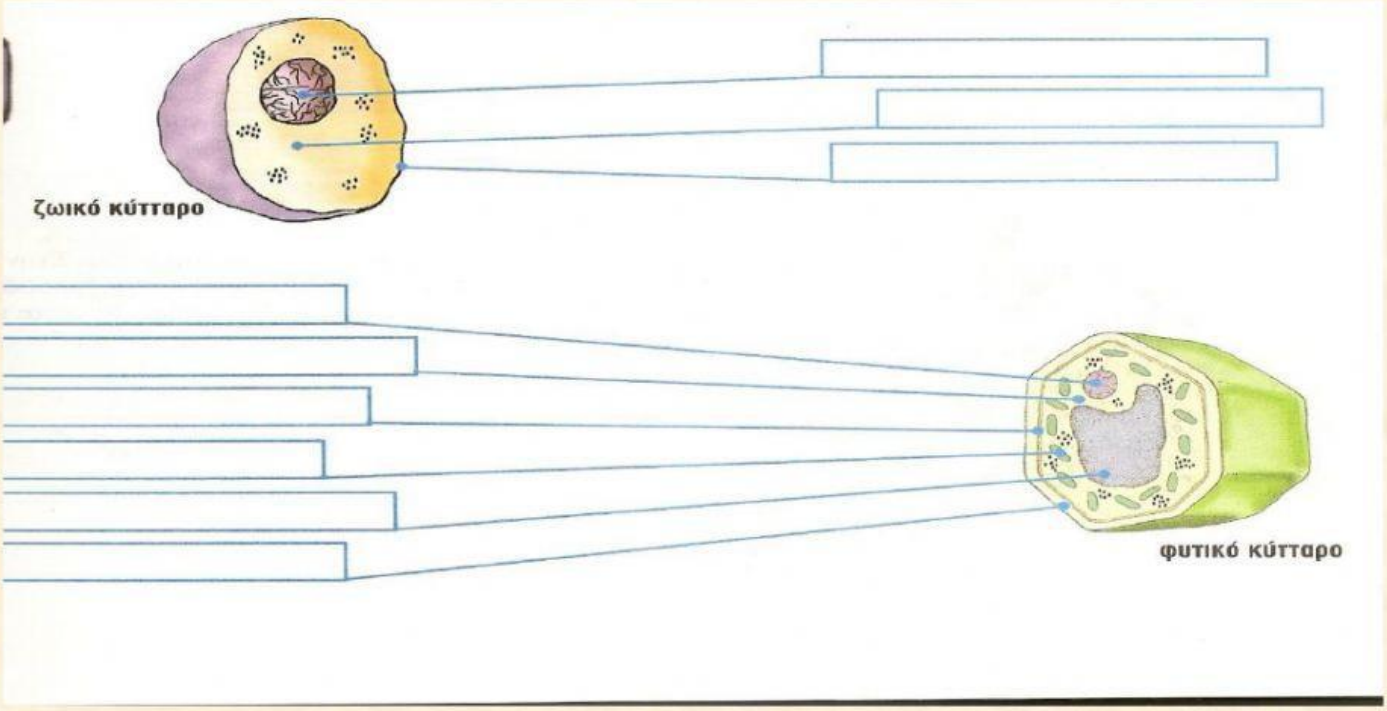

2. Να ενώσεις όσα ταιριάζουν:

Αποθήκες	•	•	Πυρήνας
Κέντρο ελέγχου	•	•	Χυμοτόπια
Σκελετός	•	•	Χλωροπλάστες
Χλωροφύλλη	•	•	Κυτταρικό τοίχωμα

LIVEWORKSHEETS

3. Να αναφέρετε τις χαρακτηριστικές λειτουργίες των ζωντανών οργανισμών: (γράφω μόνο με κεφαλαία και χωρίς τόνους)

1..... 4.....

2..... 5.....

3..... 6.....

4. Λύστε το σταυρόλεξο: (ξεκινάω να γράφω από το κουτάκι που είναι ο αριθμός, γράφω μόνο με κεφαλαία χωρίς τόνους)



Οριζόντια:

1 Σ' αυτούς πραγματοποιείται η φωτοσύνθεση

3 Πράσινη ουσία που υπάρχει μέσα στους χλωροπλάστες

Κάθετα:

2 Οργανισμοί από πολλά κύτταρα ονομάζονται....

5 Η μικρότερη μονάδα ζωής ονομάζεται....

LIVEWORKSHEETS

4 Εδώ αποθηκεύονται τα θρεπτικά συστατικά

6 Αποθήκη γενετικών πληροφοριών

7 Το κυτταρικό ..... προστατεύει το κύτταρο

8 Αυτοί οι οργανισμοί αποτελούνται από ένα κύτταρο



Καλή Επιτυχία!!!

Καλή Επιτυχία!!!

LIVEWORKSHEETS