FICHA PEDAGÓGICA

Tema: Perímetro de paralelogramos

1.- Une con líneas al nombre de cada paralelogramo.

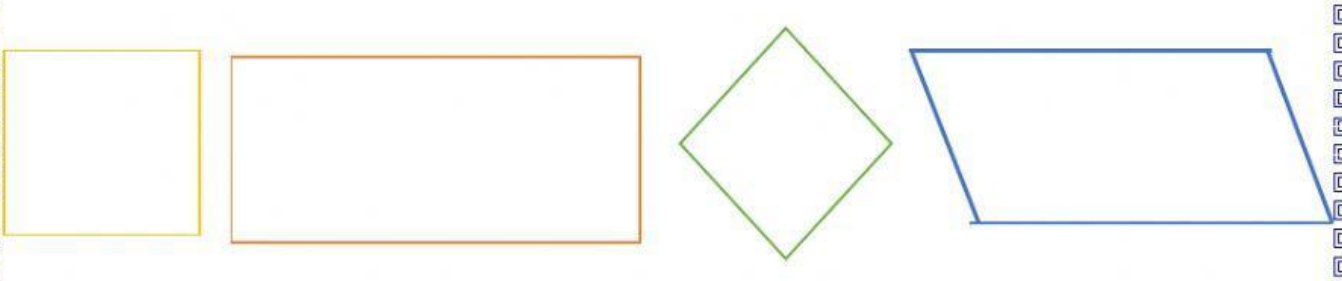

Romboide	Rombo	Rectángulo	Cuadrado

2.- ¿Señale cuáles son las figuras que tienen sus lados iguales?

Cuadrado	Rectángulo	Romboide	Rombo

3.- ¿Cuáles son las figuras que tienen sus lados opuestos, paralelos de dos en dos?

4.- Calcular el perímetro de cada paralelogramo.

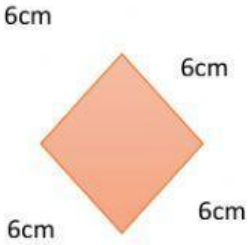

P=

P=

P=

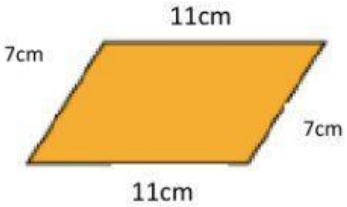

P=

P=

P=

LIVEWORKSHEETS