INTRODUCCIÓN A LA MULTIPLICACIÓN Y DIVISIÓN

UBIQUE LOS NOMBRES QUE CORRESPONDEN A CADA CÍRCULO MONTESSORI, RECUERDA LO APRENDIDO EN CLASE.

MEDIO

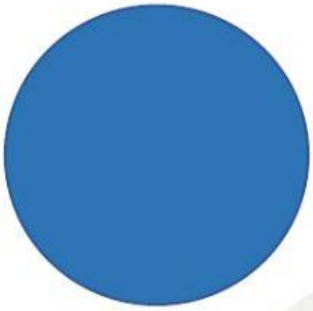

CUARTO

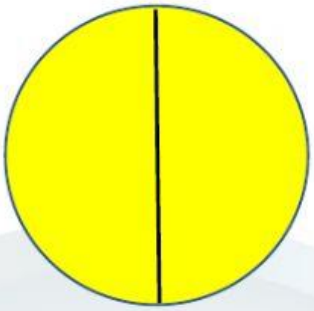

ENTERO



LEOPARDITO OBSERVE DE MANERA DETENIDA EL NÚMERO ENTERO Y UBIQUE SUS MITADES CORRECTAMENTE.

18 = ☐ + ☐

20 = ☐ + ☐

12 = ☐ + ☐

LIVEWORKSHEETS

COMPLETE LO SIGUIENTE:

LOS SIGNOS DE LA MULTIPLICACIÓN Y DIVISIÓN:

- ✓ El código de la multiplicación es el color: _____
- ✓ El código de la división es el color: _____

RELACIONES CON LÍNEAS LO SIGUIENTE:

LOS SIGNOS DE LA MULTIPLICACIÓN Y DIVISIÓN:



DIVISIÓN (Dividido para)

MULTIPLICACIÓN (Por)

Una con líneas el procedimiento con sus círculos Montessori correctos:

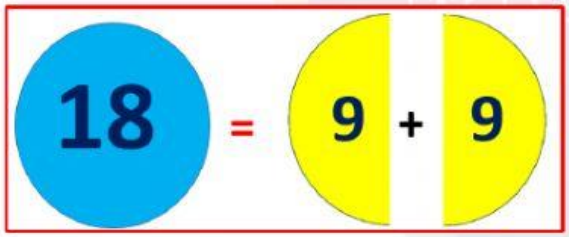

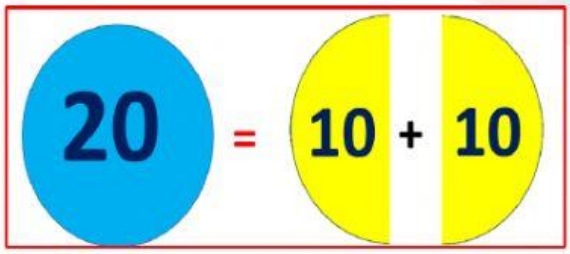

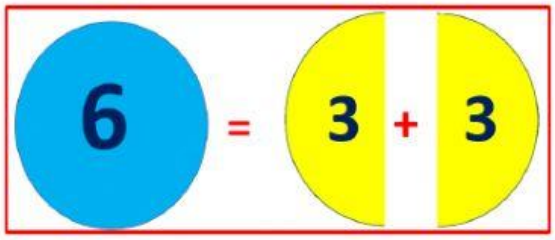

10 + 10 = 2 Veces 10 = 20

10 + 10 = 2 X 10 = 20

3 + 3 = 2 Veces 3 = 6

3 + 3 = 2 X 3 = 6

9 + 9 = 2 Veces 9 = 18

9 + 9 = 2 X 9 = 18

LIVEWORKSHEETS