ELEMENTOS BÁSICOS DE GEOMETRÍA: PUNTOS, LÍNEAS RECTAS Y CURVAS



1. **Une cada figura con el tipo de línea que le corresponde.**

VERTICAL
CURVA
HORIZONTAL

LIVEWORKSHEETS

¿Cómo son las líneas que has utilizado para unir cada dibujo con el nombre que le corresponde?

VERTICALES	OBLICUAS	CURVAS

2. Arrastra los nombres hacia la línea correspondiente.



RECTA	RECTA	CURVA

Haz lo mismo con las siguientes:

CERRADA	ABIERTA	ABIERTA

LIVEWORKSHEETS

3. **Selecciona el tipo de línea correcto para la parte destacada de cada imagen.**

HORIZONTAL
VERTICAL
OBLICUA



CURVA ABIERTA
CURVA CERRADA
VERTICAL

CURVA ABIERTA
OBLICUA
HORIZONTAL



OBLICUAS
HORIZONTALES
VERTICALES

LIVEWORKSHEETS

4. **¿Recuerdas de qué estaban formadas las líneas? Haz click en la respuesta correcta.**

LIVEWORKSHEETS