١٢-٤ تمثيلُ الكسورِ العشريَّةِ على خطِّ الأعدادِ

اكتبِ العددَ الكسريَّ الذي تُمثِّلُهُ كلُّ نقطةٍ مما يأتي، ثم اكتبْهُ بصورةِ كسرٍ عشريٍّ :

١

أ تمثل العدد .....,.....

٢ 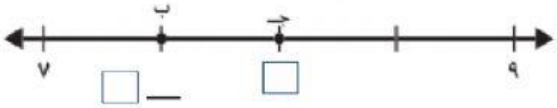

ب تمثل العدد .....,..... جـ تمثل العدد .....

٣ 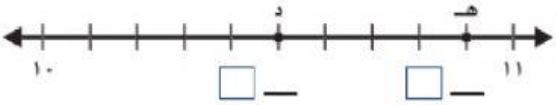

د تمثل العدد .....,..... هـ تمثل العدد .....,.....

٤ 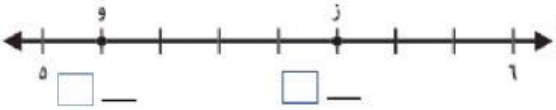

و تمثل العدد .....,..... ز تمثل العدد .....,.....

LIVEWORKSHEETS