ورقة عمل تفاعلية (0) تجريبي **G6-U7** **النسبة المئوية**

اسم الطالب : الصف : 6/

السؤال الأول : اضغط بالمؤشر داخل المربع الفارغ لكتابة إجابتك.

أوجد النسبة المئوية.

$$\frac{1 \times \square}{5 \times \square} = \frac{20}{\square} = \square\,\%$$

السؤال الثاني : اضغط بالمؤشر داخل المربع الفارغ لكتابة إجابتك.

استعمل $\overline{AB}$.

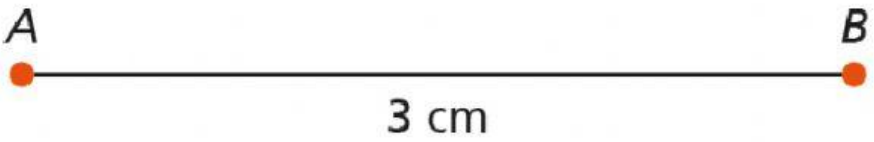

إذا كانت $\overline{AB}$ تمثّل 50%، فما طول القطعة المستقيمة التي تمثل 100%؟

LIVEWORKSHEETS

السؤال الثالث : اختر (صح) للعبارة الصحيحة ، و(خطأ) للعبارة الخاطئة:

1) النسبة المئوية هي نسبة تقارن الجزء بالكل الحد الثاني في هذه النسبة هو 100

2) النسبة المئوية هي نسبة تقارن الجزء بالكل الحد الأول في هذه النسبة هو 100

السؤال الرابع: اختر كل الإجابات الصحيحة:

حدّد جميع الأشكال المظلّلة التي تمثّل 20% من الكلّ.

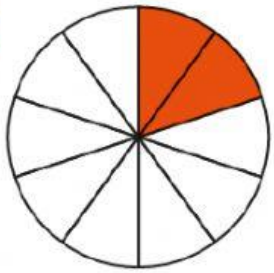



السؤال الخامس: اختر الإجابة الصحيحة:

1) الكسر الاعتيادي التالي $\frac{4}{50}$ في صورة نسبة مئوية

A 4% B 8% C 20% D 40%

---

2) الكسر العشري التالي 0.15 في صورة نسبة مئوية

A 5% B 10% C 15% D 20%

LIVEWORKSHEETS

السؤال السادس: صل العمود الأول بما يناسبه من العمود الثاني

1) 35% في صورة كسر عشري

2) 35% في صورة كسر اعتيادي

3) 0.35 في صورة نسبة مئوية

$\frac{35}{100}$

35%

0.35

السؤال السابع: اسحب الإجابة الصحيحة وضعها في المكان المناسب

النسبة المئوية	الكسر العشري	الكسر الاعتيادي
33%		
	0.17	

$\frac{17}{100}$ 0.33 $\frac{33}{100}$ 17%

LIVEWORKSHEETS

يمكنك مشاهدة الفيديو التعليمي التالي عن النسبة المئوية

يمكنك سماع تعريف النسبة المئوية ومراجعة إجاباتك قبل إنهاء الحل

تهانينا لقد وصلت إلى نهاية الرحلة

اضغط إنهاء (Finish)

تظهر لك نافذة اختر الخيار الأيسر لتظهر لك النتيجة في أعلى الورقة

لا تنسى أخذ لقطة لدرجتك وإرسالها للمعلم

LIVEWORKSHEETS