الفاقد التعليمي

المادة : رياضيات

الصف : أول متوسط العام الدراسي : ١٤٤٢ الفصل الثاني

المهارة المفقودة : ١/ قياس وتقدير الزوايا و رسمها .

أسم الطالبة :

شاهدي الفيديو إذا كنت محتاجة مساعدة

س١/ اختاري الإجابة

١	ما نوع الزاوية التي قياسها ٥٥° ؟							
	ا	قائمة	ب	مستقيمة	جـ	منفرجة	د	حادة
٢	أي مما يأتي لا يعد من أسماء الزاوية في الشكل المجاور :							
	ا	< أ ب جـ	ب	<١	جـ	< ب	د	< ب أ جـ

أمل العماني
AMAL ALOMANI

LIVEWORKSHEETS

س٢/ اسحبي تصنيف كل زاوية مما يأتي وضعيها أسفل الشكل المناسب :

حادة	منفرجة	قائمة	مستقيمة
			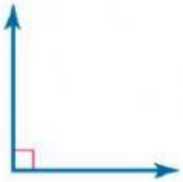

س٣/ اسحبي التصنيف المناسب لكل زوج من الزوايا الآتية وضعيها أسفل الشكل المناسب :

متتامتان	متقابلتان بالرأس	متكاملتان	متجاورتان
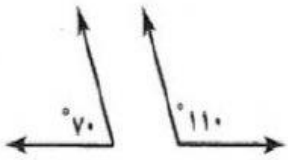			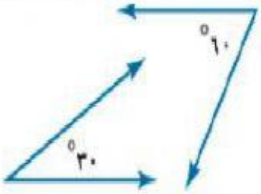

أمل العماني
AMAL ALOMANI

LIVEWORKSHEETS