Uji Pembelajaran 3

Skor ...

I. Berilah tanda silang (x) huruf a, b, atau c pada jawaban yang paling benar!

1. 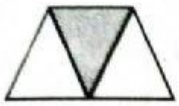

   Daerah pada gambar di samping yang diraster menunjukkan pecahan .... **(Matematika - KD 3.7)**

   a. $\frac{1}{2}$ b. $\frac{1}{3}$ c. $\frac{1}{4}$

2. 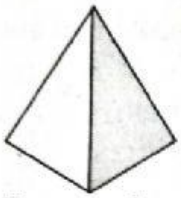

   Daerah yang diraster menunjukkan pecahan .... **(Matematika - KD 3.7)**

   a. $\frac{1}{2}$ c. $\frac{1}{4}$

   b. $\frac{1}{3}$

3. Sikap toleransi merupakan sikap .... **(PPKn - KD 3.3)**

   a. tercela c. menghargai

   b. ikut campur

4. ... siswa SD Cendana karyawisata?

   Kalimat di atas dapat dilengkapi dengan kata .... **(Bahasa Indonesia - KD 3.9)**

   a. mengapa c. bagaimana

   b. ke mana

5. Siswa SD Mutiara .... ke kebun binatang.

   Kata yang tepat untuk melengkapi kalimat rumpang di atas adalah .... **(Bahasa Indonesia - KD 3.9)**

   a. berkunjung c. bertemu

   b. memelihara

LIVEWORKSHEETS

Uji Pembelajaran 4

Skor ...

I. ***Berilah tanda silang (x) huruf a, b, atau c pada jawaban yang paling benar!***

1. Kepada teman yang berbeda suku, sikap kita adalah .... **(PPKn - KD 3.3)**
   a. berteman baik
   b. saling bermusuhan
   c. mengajak berkelahi
2. Suku yang berada di Sumatra adalah .... **(PPKn - KD 3.3)**
   a. Nias
   b. Batak
   c. Sunda
3. Raka : "Hai Hana, sejak kapan kamu di sini?"
   Kata sapaan pada kalimat tersebut adalah ....
   (Bahasa Indonesia - KD 3.9)
   a. hai
   b. Hana
   c. kapan

LIVEWORKSHEETS

4. Amanda : "... nama adikmu, Vira?"
Kata tanya yang tepat untuk kalimat tersebut adalah ....
(Bahasa Indonesia - KD 3.9)
a. apa
b. siapa
c. di mana

5. 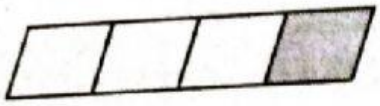

Nilai pecahan yang ditunjukkan daerah diraster di atas adalah ....
(Matematika - KD 3.7)
a. $\frac{1}{2}$ b. $\frac{1}{3}$ c. $\frac{1}{4}$

LIVEWORKSHEETS