مملكة البحرين
وزارة التربية والتعليم
مدرسة وادي السيل ب . ع للبنين

المادة : رياضيات

اسم الطالب /

الصف : ٥ ب

نشاط (مفردات هندسية)

(١) اختر بسحب اسم كل شكل فيما يأتي : (نقطة - مستقيم - شعاع - قطعة)

.....

.....

.....

(٢) اختر الإجابة الصحيحة (بالضغط عليها) فيما يلي : المستقيمان



متقاطعين أو متعامدين أو متوازيين



متقاطعين أو متعامدين أو متوازيين

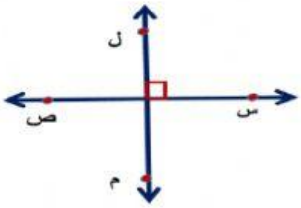

متقاطعين أو متعامدين أو متوازيين

(٣) صل المناسب من العمود الأول ما يناسبه في العمود الثاني

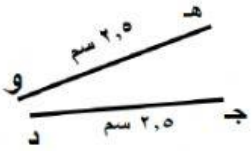

قطعة مستقيمة $\overline{أب}$

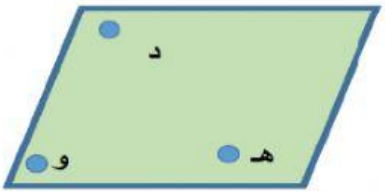

القطعتان متطابقتان

المستوى د هـ و

شعار الرياضيات لهذا الأسبوع

دائما يوجد لك مكان في القمة

ركن التعلم الذاتي

لمراجعة الدرس يمكنك في تطبيق اليوتيوب
والبحث عن عنوان الدرس

LIVEWORKSHEETS